216 Geographie N° 2

NOUVELLE

GEOGRAPHIE PRIMAIRE

ILLUSTRÉE

A L'USAGE

DES ÉCOLES CHRÉTIENNES

DE LA

PUISSANCE DU CANADA.

BIBLIOTHÈQUE S.I.E. QUÉBEC

PAR LES FRÈRES DES ÉCOLES CHRÉTIENNES,
MONTREAL,
50, RUE COTTÉ, 50.

J. CHAPLEAU & FILS, Imprimeurs & Relieurs, 31 rue Cotté.

PRÉFACE.

En préparant ce *Cours Elémentaire de Géographie,* qui n'est qu'une introduction à nos deux autres volumes déjà publiés, nous n'avons point perdu de vue que nous travaillions pour de très-jeunes enfants; dans cette pensée, nous l'avons simplifié autant qu'il nous a été possible, sans rien négliger toutefois de ce qui est essentiel pour en faire un cours complet.

Pour atteindre ce but, nous en avons distrait les grands détails, les longues nomenclatures, et, généralement, tout ce qui offre quelque difficulté, ne nous attachant qu'au facile, à l'utile et même à l'agréable.

Ainsi combiné, cet abrégé présente aux élèves trois leçons distinctes : le Texte, les Illustrations et les Cartes.

Le *Texte,* qui n'est qu'une légère esquisse sur chaque contrée, est divisé en courts paragraphes, afin d'en faciliter l'étude.

Les *Illustrations,* de nos jours fort recommandées, peuvent donner un enseignement d'intuition aussi instructif qu'intéressant.

Les *Cartes,* gravées spécialement pour cet ouvrage, font saisir sans efforts et même avec goût, au moyen des *Exercices* mis en regard, les divers accidents physiques de la surface du globe.

Puissent ces éléments de notre *Série Géographique,* être utiles à la jeunesse pour laquelle nous les avons coordonnés !

Enrégistré conformément à l'Acte du Parlement du Canada, en l'année mil huit cent soixante-dix-huit, par P. L. LESAGE, au Bureau du Ministre de l'Agriculture.

NOUVELLE

GEOGRAPHIE PRIMAIRE

ILLUSTREE.



DÉFINITIONS.

LEÇON I.

1.

Qu'est-ce que la Géographie ?

La **Géographie** est la description de la terre.

Quelle est la forme de la terre ?

La terre est à peu près ronde, comme une boule.

Quelle partie de la terre la Géographie décrit-elle ?

La Géographie décrit la **surface** de la terre.

De quoi est composée la surface du globe ?

Elle est composée de **terre** et d'**eau**.

2.

Quelle partie de la surface du globe a le plus d'étendue, la terre ou l'eau?
C'est l'eau.
Quelle est la différence entre la surface de l'eau et celle de la terre?
La surface de l'eau est environ trois fois celle de la terre.
Comment représente-t-on la terre?
On représente la terre par le moyen de **Cartes** et de **Globes.**
Qu'est-ce qu'une Carte?
Une **Carte** est un plan qui représente la terre, en entier ou en partie.

3.

Qu'est-ce qu'un Globe ou une Sphère?
C'est une boule qui sert à représenter la terre.
Comment s'appelle la moitié d'une Sphère?
La moitié d'une Sphère s'appelle **Hémisphère.**
Combien y a-t-il d'Hémisphères?
Il y en a deux: l'**Hémisphère oriental** et l'**Hémisphère occidental.**

LEÇON II.

1.—Orientation.

Comment appelle-t-on le côté où le soleil se lève?
On l'appelle **Est.**
Comment appelle-t-on le côté où le soleil se couche?
On l'appelle **Ouest.**
Quand vous avez à votre droite le soleil levant, quel point se trouve devant vous?
Le **Nord.**
Et quel point est alors derrière vous?
Le **Sud.**

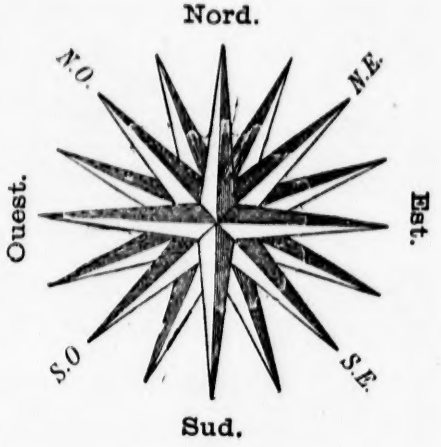

ROSE DES VENTS.

2.

Où se trouve le Nord sur une carte géographique?
Il se trouve en haut de la carte.
Où se trouve le Sud?
Le Sud se trouve en bas.
Où se trouve l'Est?
L'Est se trouve à droite.

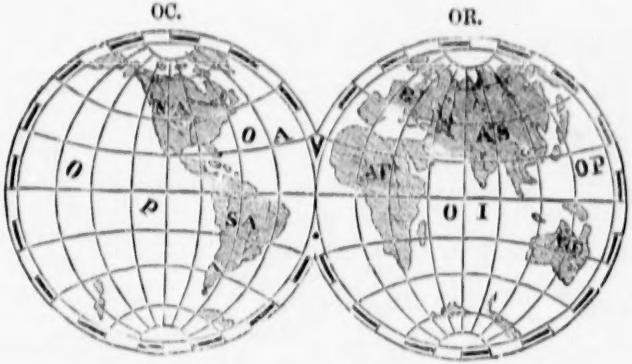

Le blanc désigne l'eau. Le noir désigne la terre. OC., Hémisphère Occidental. OR., Hémisphère Oriental. E., Europe. AS., Asie. NA., Amérique du Nord. SA., Amérique du Sud. AF., Afrique. AE., Australie. OP., Océan Pacifique. OA., Océan Atlantique. OI., Océan Indien.

Où se trouve l'Ouest sur la carte?
L'Ouest sur la carte se trouve à gauche.

3.

Comment nomme-t-on le point entre le Nord et l'Est?
On le nomme le **Nord-Est.**

Comment se nomme celui qui se trouve entre le Sud et l'Est?
Il se nomme le **Sud-Est.**

Celui qui est entre le Nord et l'Ouest?
Il s'appelle le **Nord-Ouest.**

Et celui qui est entre le Sud et l'Ouest?
Il se nomme le **Sud-Ouest.**

LEÇON III.

Divisions naturelles des Terres.

1.

Quelles sont les divisions naturelles des terres?
Ce sont les Continents, les Iles, les Presqu'îles, les Isthmes, les Caps, les Montagnes, les Plaines, les Vallées, etc.

Qu'est-ce qu'un Continent?
Un **Continent** est une grande étendue de terre non interrompue par les mers.

Combien y a-t-il de Continents?
Il y a deux Continents, **l'Ancien** et le **Nouveau.**

Quelles sont les grandes régions de l'Ancien Continent?
L'Europe, l'Asie et l'Afrique.

Iles, Péninsules, Montagnes, Mers, Golfes, etc.—1, 2. Frontières.—3. Isthme. —4. Plaine.—5. Ville.—6. Source d'une Rivière.—7. Chemin de Fer.

Quelles sont les grandes régions du Nouveau Continent ?

L'Amérique Septentrionale et l'Amérique Méridionale.

2.

Quelle autre grande partie de la terre prend aussi le nom de Continent ?

L'Australie.

Dans quel Hémisphère se trouve l'Australie ?

Dans l'Hémisphère oriental.

Dans quel Hémisphère trouve-t-on l'Asie ?

Dans l'Hémisphère oriental.

Dans quel Hémisphère se trouve l'Amérique ?

Dans l'Hémisphère occidental.

LEÇON IV.

1.

Qu'est-ce qu'une Ile ?

Une **Ile** est une étendue de terre entièrement entourée d'eau.

Qu'est-ce qu'une Presqu'ile ?

Une **Presqu'ile** est une étendue de terre que les eaux n'entourent pas entièrement.

Qu'est-ce qu'un Isthme ?

Un **Isthme** est une langue de terre qui unit une presqu'île à une autre terre.

Qu'est-ce qu'un Cap ?

Un **Cap** est une pointe de terre élevée qui s'avance dans les eaux.

2.

Qu'est-ce qu'une Montagne ?

Une **Montagne** est une grande masse de terre qui s'élève au-dessus de la surface du globe.

Qu'est-ce qu'une Colline ?

Une **Colline** est une petite montagne.

Qu'est-ce qu'un Volcan ?

Un **Volcan** est une montagne qui vomit des matières enflammées.

Qu'est-ce qu'une Plaine ?

Une **Plaine** est un grand espace de terrain à peu près d'égal niveau.

3.

Qu'est-ce qu'un Plateau ?

Un **Plateau** est une plaine élevée.

Qu'est-ce qu'une Vallée ?

Une **Vallée** est une plaine étroite où coule ordinairement un cours d'eau.

Qu'est-ce qu'un Désert ?

Un **Désert** est une région aride et stérile.

Qu'est-ce qu'une Oasis ?

Une **Oasis** est un terrain fertile situé dans un désert.

Qu'est-ce qu'une Côte ?

Une **Côte,** c'est le rivage de la mer.

LEÇON V.

Divisions naturelles des Eaux.

1.

Quelles sont les divisions naturelles des eaux ?

Ce sont les Océans, les Mers, les Golfes, les Baies, les Détroits, les Lacs, les Rivières, etc.

Qu'est-ce que l'Océan ?

L'Océan est l'ensemble des eaux salées qui entourent les continents.

Combien y a-t-il d'Océans ?

Il y a cinq Océans : l'Océan Pacifique, l'Océan Atlantique, l'Océan Indien, l'Océan Arctique et l'Océan Antarctique.

2.

Qu'est-ce qu'une Mer Intérieure ?

Une **Mer Intérieure** est celle qui est au milieu des terres.

Qu'est-ce qu'une Mer Extérieure ?

Une **Mer Extérieure** est une portion de l'océan entourée en partie par des terres.

Qu'est-ce qu'un Golfe ou une Baie ?

Un **Golfe** ou une **Baie** est une partie de la mer s'avançant dans les terres.



L'Océan.

2.

Qu'est-ce qu'un Lac ?

Un **Lac** est une grande étendue d'eau au milieu des terres.

Qu'est-ce qu'un Détroit ?

Un **Détroit** est un bras de mer qui a peu de largeur et qui unit deux mers.

Qu'est-ce qu'un Port ?

Un **Port** est le lieu où les bateaux chargent et déchargent les marchandises.

LEÇON VI.

1.

Qu'est-ce qu'un Fleuve ?

Un **Fleuve** est un cours d'eau considérable qui se jette dans la mer.

Qu'est-ce qu'une Rivière ?

Une **Rivière** est un cours d'eau qui se jette dans un fleuve ou dans une autre rivière.

Qu'est-ce que la Source d'une rivière ?

C'est l'endroit où la rivière commence à couler.

Qu'est-ce que l'Embouchure d'une rivière ?

C'est l'endroit où la rivière finit.

2.

Qu'est-ce qu'un Affluent ?

Un **Affluent** est une rivière qui se jette dans une autre.

Qu'appelle-t-on Rive droite d'une rivière ?

Le côté de la rivière qui est à la droite d'une personne qui la descend.

Qu'appelle-t-on Rive gauche ?

Le côté opposé à la rive droite.

3.

Qu'est-ce que le Haut d'une rivière ?

C'est la partie de la rivière qui est vers sa source.

Qu'est-ce que le Bas d'une rivière ?

C'est la partie qui est vers son embouchure.

Qu'est-ce qu'une Cataracte ?

C'est le saut que font les eaux en tombant d'une hauteur considérable.

Qu'est-ce qu'un Confluent ?

Un **Confluent** est l'endroit où deux rivières se rencontrent.

Qu'est-ce qu'un Canal ?

Un **Canal** est une espèce de fossé construit pour faciliter le transport des marchandises.

LEÇON VII.

Divisions politiques.

1.

Quelles sont les principales divisions politiques du globe ?

Ce sont les Empires, les Royaumes, les Républiques, les Confédérations, les Provinces, etc.

Qu'est-ce qu'un Empire ?

Un **Empire** est un état renfermant plusieurs contrées, et gouverné par un empereur.

Qu'est-ce qu'un Royaume ?

Un **Royaume** est un état gouverné par un roi ou une reine.

2.

Qu'est-ce qu'une République ?

Une **République** est un état qui n'a qu'un chef temporaire, nommé président.

Qu'est-ce qu'une Confédération ?

Une **Confédération** est une alliance entre plusieurs états ou provinces.

Qu'est-ce qu'une Province ?

Une **Province** est une subdivision d'un état.

Qu'est-ce qu'un Comté ?

Un **Comté** est une des subdivisions d'une province.

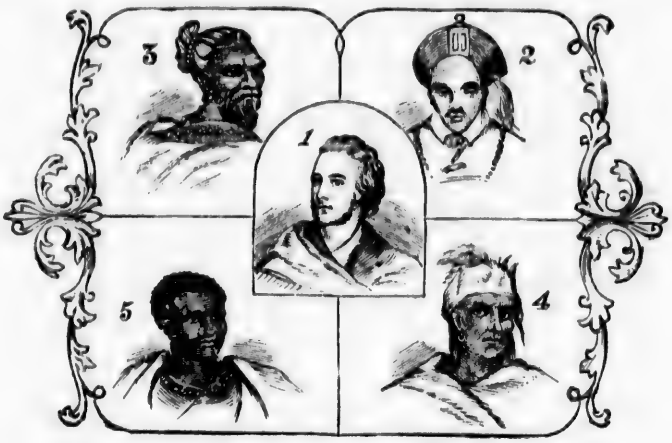

1. Blanc.—2. Jaune.—3. Brun.—4. Rouge.—5. Noir.

3.

Qu'est-ce qu'un Diocèse ?

Un **Diocèse** est une étendue de pays sous la juridiction d'un évêque.

Qu'est-ce qu'une Paroisse ?

Une **Paroisse** est une portion de diocèse, sous la juridiction d'un curé.

Qu'est-ce qu'une Ville ?

Une **Ville** est l'assemblage d'un grand nombre de maisons disposées par rues.

Comment appelle-t-on la ville où le Gouvernement réside ?

On l'appelle **Capitale.**

4.—Races humaines.

La *race blanche* comprend les nations de l'Europe, de l'Asie occidentale, du nord de l'Afrique et celles de l'Amérique.

La *race jaune* comprend les nations de l'Asie orientale, les Lapons et les Esquimaux.

La *race brune* comprend les peuples de la Malaisie.

La *race rouge* comprend les Indiens ou Sauvages de l'Amérique.

La *race noire* comprend la plus grande partie de l'Afrique et de l'Australasie.

Ces *races*, eu égard à leurs habitudes, peuvent encore se diviser en quatre classes : les Sauvages, les Barbares, les peuples demi-civilisés et les peuples civilisés.

AMÉRIQUE SEPTENTRIONALE.

ANIMAUX DE L'AMÉRIQUE SEPTENTRIONALE.

LEÇON VIII.

1.

1. L'Amérique Septentrionale est bornée au Nord par l'Océan Arctique ; à l'Est, par l'Atlantique ; au Sud et à l'Ouest, par le Pacifique.

2. Les principales divisions de l'Amérique Septentrionale sont la Puissance du Canada, les Etats-Unis, le Mexique et l'Amérique Centrale.

3. Les principales *Iles* de l'Amérique Septentrionale sont celles de Terreneuve, du Prince-Edouard, Cuba, la Jamaïque, Porto-Rico et Vancouver.

2.

1. Les *Presqu'îles* les plus remarquables sont la Nouvelle-Ecosse, la Floride et la Basse-Californie.

2. Les principaux *Caps* sont Farewell, Hatteras, Sable, St-Lucas et Mandacino.



PONT SUSPENDU DE NIAGARA.

3. Les principales *Montagnes* sont les Alleghanys et les Montagnes Rocheuses.

4. Les principaux *Golfes* sont : le golfe St-Laurent, le golfe du Mexique et la baie d'Hudson.

3.

1. Les *Détroits* les plus remarquables sont: le détroit de Belle-Isle et celui de Behring.

2. Les principaux *Lacs* sont ceux de la Grande-Ourse, de l'Esclave, les lacs Supérieur, Michigan, Huron, Erié et Ontario.

3. Les principaux *Fleuves* sont le Mackenzie, le St-Laurent, le Mississippi et le Rio Grande.

1.—QUESTIONNAIRE.—1. Quelles sont les bornes de l'Amérique Septentrionale ?
2. Comment se divise l'Amérique Septentrionale ?
3. Quelles sont les principales îles de l'Amérique Septentrionale ?

2.—1. Quelles sont les principales presqu'îles ?
2. Quels sont les principaux caps ?
3. Quelles sont les principales montagnes ?
4. Quels sont les principaux golfes ? —Les principales baies ?

3.—1. Quels sont les détroits les plus remarquables ?
2. Quels sont les principaux lacs ?
3. Quelles sont les principales rivières ?

LEÇON IX.

PUISSANCE DU CANADA.

1.

1. La *Puissance du Canada* est une vaste région qui occupe une grande partie du nord de l'Amérique Septentrionale.

2. Elle comprend sept Provinces, savoir: Québec, Ontario, la Nou-

velle-Ecosse, le Nouveau-Brunswick, l'Ile du Prince-Edouard, Manitoba et la Colombie Anglaise; il y a en outre le Territoire du Nord-Ouest et le District de Kiwatin.

Ottawa, capitale, est agréablement située sur la rive droite de l'Outaouais. Les bâtisses du Parlement en sont le principal ornement. La chute de la Chaudière, près de la ville, est très-remarquable.

2.—Québec.

1. La *Province de Québec*, la plus ancienne des sept, est située sur les deux versants du fleuve St-Laurent, entre la province d'Ontario et l'Atlantique.

2. Le *climat* de cette Province est très-froid en hiver, mais agréable en été et en automne.

3. Le *sol* est fertile ; il produit le blé, le maïs et les autres graminées, des fruits et des légumes en abondance.

4. *Québec*, capitale, est assise sur le Cap-Diamant, d'où elle domine le St-Laurent et tous les environs. C'est le grand entrepôt du commerce de la Puissance avec l'Angleterre.

Montréal est la plus importante ville de la Puissance et le siége d'un grand commerce.

1.—QUESTIONNAIRE.—1. Qu'est-ce que la Puissance du Canada?—Quelle partie de l'Amérique occupe-t-elle?

2. Quelle est la capitale de la Puissance?—Sur quelle rivière est-elle située?—Quels en sont les principaux édifices?—Quelle chute remarquable est située près d'Ottawa?

2.—Où la province de Québec est-elle située?—Quelle espèce de climat a-t-elle?

2. Quelle espèce de sol?—Que produit-elle?

3. Quelle est la capitale de cette Province?—Où est-elle située?—Quelle est la ville la plus importante du Canada?

3.—Ontario.

1. Cette Province est située à l'ouest de celle de Québec et au N. des Etats-Unis; elle est la première province pour la population.

2. Son *climat* est plus doux que celui de la province de Québec, parce qu'elle est plus au sud.

3. Le *sol* est généralement fertile; les produits sont à peu près les mêmes que ceux de la province de Québec. L'huile de pétrole surtout y abonde.

Le commerce est très-actif.

4. *Toronto*, capitale, ville très-prospère, est située sur une jolie baie du lac Ontario. Son havre est sûr et spacieux. L'Université en est le principal édifice.

SUCRE D'ERABLE.

LEÇON X.

1.—Nouvelle-Ecosse.

1. La *Nouvelle-Ecosse* est une presqu'île située au sud du golfe St-Laurent.

2. Ses côtes sont échancrées par un grand nombre de bons havres, qui favorisent singulièrement le commerce.

3. Son *climat* est plus doux que celui de Québec. Ses principaux produits sont ceux qui proviennent de l'agriculture, des pêcheries et des mines.

4. *Halifax*, capitale, est la principale station navale de l'Angleterre en Amérique. Son havre est un des plus beaux du monde.

2.—Nouveau-Brunswick.

1. Le *Nouveau-Brunswick* est compris entre la province de Québec et la Nouvelle-Ecosse, à laquelle il est réuni par l'isthme de Chignectou.

2. Sa surface, en général, est onduleuse ; les montagnes sont peu élevées.

3. Son *climat* ressemble à celui de la province de Québec.

4. Les principales occupations des habitants sont : l'exploitation des forêts et la construction de vaisseaux.

Frédéricton, capitale, est agréablement située sur la rive droite du fleuve St-Jean.

St-Jean, sur la rive nord, à l'embouchure du fleuve St-Jean, est la ville la plus importante de la Province.

LEÇON XI.

1.—Ile du Prince-Edouard.

1. *L'Ile du Prince-Edouard* est située dans le golfe St-Laurent; c'est la plus petite province de la Puissance, mais la plus peuplée proportionellement.

2. Le *climat* est plus doux que celui des provinces voisines.

3. Ses produits sont ceux qui proviennent de l'agriculture et de l'exploitation des forêts.

4. *Charlottetown*, capitale, est bâtie sur une petite élévation, près de la rivière Hillsborough.

2.—Manitoba.

1. *Manitoba*, traversé par la Rivière-Rouge, était autrefois connu sous le nom d'*Etablissement* de la Rivière-Rouge.

2. Le *climat* est très-froid en hiver.

3. Sa surface est unie et couverte de prairies; le *sol* est très-propre à la culture et très-productif.

4. *Winnipeg*, capitale, est assise à la jonction de la rivière Assiniboine et de la Rivière-Rouge. C'est la métropole du commerce pour le Nord-Ouest.

LEÇON XII.

1.—Colombie Anglaise.

1. *La Colombie Anglaise*, appelée autrefois Nouvelle-Calédonie, est la province la plus occidentale de la Puissance. Elle est comprise entre les Montagnes-Rocheuses et le Pacifique, au N. des Etats-Unis, dont elle est séparée par le 49e dégré de latitude.

2. Sa surface est montagneuse; le *climat*, généralement doux, est agréable et salubre.

3. Cette Province est particulièrement remarquable pour ses mines d'or, qui sont très-abondantes.

4. *Victoria*, capitale, est située dans la partie sud de l'île Vancouver; les environs en sont remarquablement beaux.

2.—Territoire du Nord-Ouest.

1. Ce *Territoire* est une vaste contrée qui occupe le N. de la Puissance du Canada et s'étend jusqu'à l'Océan Arctique.

2. Le *climat* est extrêmement froid et se refuse à toute culture, excepté la partie du Sud-Ouest, nommée *prairies*.

3. Le *sol*, dans le S. consiste en prairies et dans le N., en forêts qui fournissent des fourrures en abondance.

4. La principale place est *Battleford*, située à la jonction des rivières Battle et Saskatchewan.

3.—Kiwatin.

1. Le *District* de *Kiwatin* est compris entre la province d'Ontario, le territoire du Nord-Ouest et Manitoba.

2. Le *climat* est extrêmement froid.

3. Le N. de ce District, comme le N. du Nord-Ouest, n'est utile que pour la chasse des animaux à fourrures.

4. Ce District est gouverné par les autorités de Manitoba.

4.—Terreneuve.

1. L'Ile de *Terreneuve* est située dans le golfe St-Laurent; elle est découpée par un grand nombre de baies.

2. Le *climat* est un peu humide, mais salubre; les brouillards y sont fréquents.

3. Le câble transatlantique y a son *terminus*. Le grand Banc de Terreneuve est très-renommé pour la pêche de la morue.

4. *St-Jean*, située dans la peninsule Avalon, en est la capitale.

LEÇON XIII.

1.—Etats-Unis.

1. *Les Etats-Unis* occupent le centre de l'Amérique Septentrionale et s'étendent de la Puissance du Canada au golfe du Mexique, et de l'Atlantique au Pacifique.

2. *Washington*, capitale, est une belle ville et bien bâtie, sur la rivière Potomac; le Capitole en est le principal ornement.

3. Les Etats-Unis se divisent en Etats de l'Est, Etats du Milieu, Etats du Sud et Etats de l'Ouest; ils comptent en outre onze territoires, y compris Alaska.

2.—Etats de l'Est.

1. *Les Etats de l'Est* sont au nombre de six, et forment ce qu'on appelle la Nouvelle-Angleterre; ils



CONVOI DE CHEMIN DE FER.

sont situés au nord-est de l'Union et s'étendent le long de l'Atlantique.

2. Le *climat* est doux en été et sévère en hiver.

3. Le sol est excellent : il produit du blé, du maïs et autres graminées.

4. Les principales villes sont *Boston* et *Providence*.

3.—Etats du Milieu.

1. *Les Etats du Milieu*, au nombre de quatre, sont situés au sud et à l'ouest des précédents, et s'étendent de l'Atlantique aux grands lacs Canadiens.

2. Le *climat* est généralement plus doux que dans la Nouvelle-Angleterre.

3. Une grande partie du sol de ces Etats est fertile et produit du blé, du maïs, du seigle, etc., et aussi des fruits.

4. Les principales villes sont *New-York*, la plus grande ville de toute l'Amérique ; *Philadelphie* et *Brooklyn*.

LEÇON XIV.

1.—Etats du Sud.

1. *Les Etats du Sud*, au nombre de douze, s'étendent de la rivière Susquehanna à la Rio Grande, et sont baignés par l'Atlantique et le golfe du Mexique.

2. Le *climat* est généralement chaud ; la neige et la glace y sont rares.

Coton.

3. Presque tout le coton, le sucre, le tabac et le riz des Etats-Unis, sont produits par les Etats du Sud.

4. Les principales villes de ces Etats sont *Baltimore*, *Nouvelle-Orléans* et *Washington*.

2.—Etats de l'Ouest.

1. *Les Etats de l'Ouest* comprennent quinze états et dix territoires; ils s'étendent des monts Alleghanys au Pacifique, et du Mexique à la Puissance du Canada.

2. Le *climat* varie selon la latitude; mais en général, il est plus doux que dans les Etats de l'Est.

3. Dans toute la vallée du Mississippi, le sol est généralement riche et fertile.

4. Les principales villes sont *St-Louis*, *Chicago* et *San Francisco*.

5. Le chemin du Pacifique traverse toute cette contrée, de Omaha à San Francisco, en Californie, faisant un parcours de 1907 miles.

LEÇON XV.

1.—Mexique.

1. *Le Mexique* est une république très-étendue située au sud des Etats-Unis, desquels elle est en partie séparée par la Rio Grande.

2. Le *climat* de cette contrée est très-chaud.

3. Le *sol* produit une grande variété de fruits tropicaux. Il possède aussi plusieurs riches mines d'or et d'argent.

4. *Mexico*, capitale, est située dans une délicieuse vallée, à 8,000 pieds d'élévation au-dessus du niveau de la mer.

2.—Amérique Centrale.

1. *L'Amérique Centrale* est une confédération située entre le Mexique et l'isthme de Panama. Elle est divisée en plusieurs Etats indépendants.

CANNES A SUCRE.

2. Cette contrée est particulièrement remarquable par la chaleur de son *climat*, ses nombreux volcans et ses riches mines d'argent.

3. Les productions sont semblables à celles du Mexique ; elle exporte l'acajou et le *bois des Indes* en grande quantité.

4. Les principales villes de ces Etats sont *Guatimala*, *San José* et *San Salvador*.

3.—Antilles.

1. *Les Antilles*, ou Indes Occidentales, sont des îles situées entre l'Amérique Septentrionale et l'Amérique Méridionale.

2. Elles se divisent en Grandes et en Petites Antilles.

3. Le *climat* est chaud et malsain sur les côtes, mais sain et agréable dans l'intérieur. Le *sol* est généralement fertile.

AMÉRIQUE MÉRIDIONALE.



Animaux de l'Amérique Méridionale.

LEÇON XVI.

1.

1. L'Amérique Méridionale est bornée au N. par la mer des Antilles ; à l'E., par l'Atlantique ; au S., par l'Océan Antarctique ; et, à l'O., par l'Océan Pacifique.

2. Les principales divisions sont les Etats-Unis de la Colombie, le Vénézuéla, les Guyanes, le Brésil, l'Uruguay, la Confédération Argentine, la Patagonie, le Chili, la Bolivie, le Pérou, l'Equateur et le Paraguay.

3. Les principales *Iles* sont celles de Joannes et la Terre-de-Feu.

4. Les *Caps* les plus importants sont Gallinas, St-Roque, Horn et Blanco.

2.

1. Les principales *Montagnes* sont les Andes et les monts Bréziliens.

2. Les *Baies* sont celles de Tous-les-Saints et de Panama ; les *Golfes*, ceux de St-Georges et de Guayaquil.

3. Le principal *Détroit* est celui de Magellan, et le principal *Lac*, celui de Maracaybo.

4. Parmi les principaux *Fleuves*, on remarque l'Amazone, le plus grand du globe ; le Rio de la Plata, formé par les rivières Parana et Paraguay.

LEÇON XVII.

1.—Etats-Unis de la Colombie.

1. Cette contrée occupe la partie N.-O. de l'Amérique Méridionale, y compris l'isthme de Panama.

2. Le *climat* est très-chaud et malsain, excepté sur les plateaux élevés.

3. On y trouve de l'or et des pierres précieuses en grande quantité.

4. *Bogota*, située au centre du pays, en est la capitale.

2.—Vénézuéla.

1. Le *Vénézuéla* est situé dans le N. de l'Amérique Méridionale, et à l'E. des Etats-Unis de la Colombie.

2. Le *climat* est à peu près le même que celui de la Colombie.

3. La plus grande partie de cet Etat consiste en une vaste plaine couverte d'herbes qui permet l'élevage de nombreux troupeaux.

4. *Caracas*, située non loin de la mer, en est la capitale.

3.—Guyanes.

1. Les *Guyanes* sont des colonies, aussi situées dans le N. de l'Amérique Méridionale, à l'E. du Vénézuéla.

2. Le *climat* est chaud et assez malsain.

3. Le *sol* produit une grande variété de fruits ; on y récolte aussi la canne à sucre, du café, et des épices.

4. Les principales villes sont *Georgetown*, *Paramaribo* et *Cayenne*.

LEÇON XVIII.

1.—Brésil.

1. Le *Brésil* est la plus grande contrée de l'Amérique Méridionale ; il en occupe presque toute la partie orientale.

2. Le *climat* est chaud, mais assez agréable.

3. Parmi ses productions, on cite particulièrement les bois précieux et les bois à peinture. Les diamants et les pierres précieuses s'y trouvent en grande quantité. La moitié du café consommé sur le globe est produit par le Brésil.

Chasse aux Bœufs sauvages.

4. *Rio Janeiro*, capitale, est la ville la plus considérable de l'Amérique Méridionale.

1.—Uruguay.

1. Cette petite contrée est située au S. du Brésil, et à l'E. de la Confédération Argentine.

2. Le *climat* est sain et délicieux.

3. Une grande partie du pays consiste en prairies, appelées *pampas*.

4. *Monté-Video*, sur le Rio de la Plata, en est la capitale.

3.—Confédération Argentine.

1. Ce pays, appelé aussi La Plata, est formé d'une grande contrée de l'Amérique Méridionale; il est situé au S.-O. du Brésil.

2. Le *climat*, en général, est sain et tempéré.

3. La Plata est particulièrement remarquable par le grand nombre de bestiaux qui errent en liberté dans ses vastes plaines ou *Pampas*.

4. *Buenos-Ayres*, sur le Rio de la Plata, est la capitale.

LEÇON XIX.

1.—Patagonie.

1. La *Patagonie* est la partie la plus méridionale de l'Amérique.

2. C'est un pays froid, aride et

sans culture ; ses habitants sont des sauvages très-peu connus.

3. La Patagonie n'a point de villes.

2.—Chili.

1. Le *Chili* est un pays long et étroit situé entre les Andes et le Pacifique, à l'O. de la Confédération Argentine.

2. Le *climat* est sain et agréable.

3. Le *sol* est généralement fertile ; il contient des mines d'or et d'argent. Il est remarquable par ses volcans et ses tremblements de terre.

4. *Santiago* est la capitale, et *Valparaiso*, le principal port de mer.

3.—Bolivie.

1. La *Bolivie* est située à l'E. du Brésil et au N. de La Plata. Elle faisait autrefois partie du Pérou.

2. Le *climat* est extrêmement chaud.

3. Ce pays est particulièrement remarquable par ses riches mines d'argent.

4. *Chuquisaca*, appelée aussi *Sucre*, est la capitale.

LECON XX.

1.—Pérou.

1. Le *Pérou* est située entre le Brésil et l'Océan Pacifique.

2. Le *climat* est chaud, et le pays souvent visité par de violents tremblements de terre.

3. Le Pérou est renommée à cause de l'abondance de ses métaux précieux.

4. *Lima*, capitale, est la plus belle ville de l'Amérique Méridionale

2.—Equateur.

1. L'*Equateur* est situé entre le Brésil et l'Océan Pacifique, et entre la Colombie et le Pérou.

2. Le *climat* est chaud et malsain, excepté sur les plateaux où il est doux et salubre.

3. Le *sol* est très-fertile, excepté dans le N. ou il ne pleut que rarement.

4. *Quito*, située à 8,000 pieds d'altitude, est la capitale.

3.—Paraguay.

1. Le *Paraguay*, petit état intérieur, est situé entre le Brésil, La Plata et la Bolivie.

2. Le *climat* est doux et salubre.

3. Une des plus remarquables productions du Paraguay est le *Yerba maté*, dont on se sert au lieu de thé dans une grande partie de l'Amérique Méridionale.

4. L'*Assomption* est la capitale du Paraguay.

EUROPE.



ANIMAUX DE L'EUROPE.

LESSON XXI.

1.

1. L'Europe est bornée au N. par la mer Glaciale; à l'E., par l'Asie et la mer Caspienne; au S., par la mer Noire et la Méditerranée; et, à l'O., par l'Océan Atlantique.

2. Les principaux *Etats* de l'Europe sont les Iles Britanniques, le Danemark, la Norwége, la Suède, la Russie, la France, la Hollande, l'Empire Germanique, l'Autriche, la Suisse, l'Espagne, le Portugal, l'Italie, la Turquie et la Grèce.

2.

1. Les principales *Iles* sont: les Iles Britanniques, dans l'Atlantique; la Corse, la Sardaigne et la Sicile, dans la Méditerranée.

2. Les *Presqu'iles* sont la Suède et la Norwége, la Grèce, l'Italie, l'Espagne et le Portugal, et la Hollande.

3. Les *Caps* les plus remarquables sont: les caps Nord, Matapan, et Finistère.

Les principales *Montagnes* sont

VUE DE LONDRES.

les Dovrefields, les Carpathes, les Alpes et les Pyrénées.

3.

1. Les *Golfes* les plus remarquables sont ceux de Bothnie, de Finlande et de Gascogne.

2. Les principaux *Détroits* sont le Pas de Calais, le Skager Rack, ceux de Messine et de Gibraltar.

3. Les principaux *Lacs* sont ceux d'Onéga et de Ladoga, en Russie.

4. Les *Fleuves* les plus remarquables sont le Volga, le Don, le Dniéper, le Danube, le Rhône et le Rhin.

LEÇON XXII.

1.—Les Iles Britanniques.

1. Les *Iles Britanniques* sont situées au N.-O. de l'Europe et forment le Royaume de la Grande-Bretagne. Elles se composent de l'Angleterre, de l'Ecosse et de l'Irlande.

2. Le *climat* est très-doux et généralement humide.

3. Le *sol* de ces îles est fertile ; l'agriculture est portée à un très-haut degré de perfection. L'Angleterre est la contrée la plus commerciale du monde.

4. *Londres*, capitale de l'Angleterre, est la ville la plus grande et la plus riche du globe. Elle est très-sujette aux brouillards.

Edimbourg, capitale de l'Ecosse et *Dublin*, capitale de l'Irlande, sont remarquables par leurs rues élé-

gantes et leurs beaux édifices publics.

2.—Scandinavie.

1. La *Scandinavie*, située au N.-E. de l'Europe, comprend la presqu'île de Suède et de Norwége, et celle de Danemark.

2. Le *climat* est très-froid, la plus grande partie de l'année, dans la Norwége et le N. de la Suède ; il est plus tempéré dans le Danemark et le S. de la Suède.

3. La Norwége a un *sol* âpre et montagneux ; celui de la Suède et du Danemark est uni et couvert de lacs et de rivières.

4. *Christiania* est la capitale de la Norwége ; *Stockholm*, de la Suède et *Copenhague*, du Danemark.

LEÇON XXIII.

1.—Russie.

1. La *Russie*, située dans le N.-E. de l'Europe, est l'état le plus étendu du continent.

2. Le *climat* est très-froid dans le N., mais tempéré dans le S., et salubre partout.

3. Le *sol* produit une grande variété de grains et de fruits.

4. *St-Petersbourg*, la capitale, est une très-belle ville.

2.—France.

1. La *France* est une contrée de l'Europe, très-grande et très importante.

2. Son *climat* est tempéré et délicieux.

3. La France est célèbre pour ses manufactures de soie et de draps, et ses productions de vins et de graminées.

4. *Paris*, capitale, est la plus belle ville de l'Europe, et aussi la plus populeuse après Londres.

3.—Belgique.

1. La *Belgique* est un petit état de l'Europe Centrale situé au N. de la France.

2. Son *climat* est un peu froid et humide.

3. C'est un très-beau pays, possédant un *sol* fertile, et très-bien cultivé.

4. Bruxelles est la capitale de la Belgique.

LEÇON XXIV.

1.—Hollande.

1. La Hollande est une petite contrée de l'Europe située au N. de la Belgique.

2. Le *climat* est humide et désagréable.



CULTURE DE LA VIGNE.

3. Le *sol* est bas et stérile, mais les habitants l'ont rendu fertile à force de travail et d'industrie.

4. *La Haye*, capitale, est située sur la côte de la Mer du Nord.

2.—Empire Germanique.

1. Cet *Empire* occupe le centre de de l'Europe. Il embrasse la Prusse et plusieurs petits états, dont chacun a sa capitale.

2. Le *climat* est généralement froid, surtout dans le nord.

3. Le *sol*, qui est très-bien cultivé, produit abondamment toutes sortes de graminées. La vigne prospère dans le sud.

4. *Berlin* est la capitale de tout l'Empire.

3.—Autriche.

1. *L'Autriche* est un des plus grands états de l'Europe ; elle est située au S.-E. de l'Allemagne.

2. Le *climat* est froid dans les régions montagneuses et doux dans les plaines.

3. Les *productions* minérales, telles que le sel, le charbon, le cuivre et le fer sont abondantes.

4. *Vienne*, capitale de l'Autriche, est une belle et grande ville ; elle est située sur le Danube.

LEÇON XXV.

1.—Suisse.

1. La *Suisse* est une petite répu-

blique située à l'E. de la France.

2. Le *climat* varie avec l'altitude.

3. C'est la contrée la plus montagneuse de l'Europe ; elle possède un grand nombre de scènes romantiques.

4. *Berne*, capitale, est située sur la rivière Aar.

2.—Espagne.

1. *L'Espagne* et le *Portugal* forment la presqu'île *Hispanique*, au S. de la France, dont elle est séparée par les Pyrénées.

2. Le *climat* de l'Espagne est tempéré sur les côtes, mais sujet aux extrêmes sur les plateaux.

3. L'Espagne est le pays le plus montagneux de l'Europe après la Suisse. Son *sol* est bon et productif.

4. *Madrid*, capitale, possède des places et des édifices splendides.

3.—Portugal.

1. Le *Portugal* est un royaume qui occupe la partie ouest de la péninsule Hispanique.

2. Son *climat* ressemble beaucoup à celui de l'Espagne.

3. Ce pays est renommé par ses productions de vins, et principalement pour son vin de Porto.

4. *Lisbonne*, sur le Tage, est la capitale du Portugal.

LEÇON XXVI

1.—Italie.

1. *L'Italie* est une presqu'île importante située au S. de l'Europe, dans la Mer Méditerranée.

2. Elle est remarquable pour la douceur de son *climat* et la beauté de ses sites.

3. Son *sol* produit une grande variété de fruits délicieux, tels que figues, oranges, dattes, etc.

4. *Rome* est la capitale de l'Italie et de tout le monde Catholique, étant la résidence de N.S.P.le Pape.

2.—Turquie d'Europe.

1. Cette contrée est située au S. de la Russie et à l'E. de l'Italie.

2. Son *climat* est tempéré et salubre.

3. Le *sol* produit particulièrement le maïs,le coton, le riz, la soie, les olives etc.

4. *Constantinople*,sur le Bosphore, en est la capitale.

3.—Grèce.

1. La *Grèce* est une petite presqu'île située au S. de la Turquie d'Europe.

2. Son *climat* et ses productions ressemblent beaucoup à ceux de la Turquie.

3. La Grèce fut rendue fameuse autrefois par ses philosophes et sa littérature.

4. *Athènes*, capitale, est située sur le golfe d'Egine.

ASIE.



ANIMAUX DE L'ASIE.

LEÇON XXVII.

1.

1. *L'Asie* est la plus étendue des cinq parties du monde ; elle est remarquable surtout par ses hautes montagnes. Elle est bornée au N. par l'Océan Arctique ; à l'E., par le Pacifique ; au S., par l'Océan Indien ; et, à l'O., par la mer Rouge, la Méditerranée et l'Europe.

2. Les principales divisions politiques sont la Sibérie, la Chine, l'Inde ou Hindoustan, le Turkestan, l'Afganistan, le Beloutchistan, la Perse, la Turquie d'Asie, l'Arabie et le Japon.

2.

1. Les principales *Iles* sont le Japon, Formose et Ceylan.

2. Les *Presqu'îles* sont Kamtchatka, la Corée, Malacca, le Deccan et l'Arabie.

3. Les principaux *Caps* sont :

le cap Oriental et le cap Comorin.

4. Les *Chaines* de *Montagnes* les plus remarquables sont : les monts Altaï, Himalaya et Ourals.

3.

1. Les *Mers* sont celles d'Okhotsk, du Japon, de la Chine ; la mer Jaune, la mer Arabique, la mer Rouge, la mer Noire et la mer Caspienne.

2. Les principaux *Golfes* sont : le golfe de Siam, le golfe Persique et celui de Bengale.

3. Les principaux *Détroits* sont ceux de Behring, de Malacca, d'Ormus, et de Bab-el-Mandeb.

4. Les *Fleuves* sont l'Obi, la Léna, le Hoang-Ho, le Yang-tse-Kiang, le Gange et l'Indus.

LEÇON XXVIII.

1.—Sibérie.

1. La *Sibérie* est une vaste contrée russe qui occupe le N. de l'Asie.

2. Le *climat* est extrêmement froid, surtout dans le nord.

3. Ses ressources proviennent des animaux à fourrure.

4. *Irkoutsk* est la principale ville.

2.—Empire Chinois.

1. *L'Empire Chinois* occupe le centre de l'Asie et comprend la Chine propre, la Mongolie, la Mantchourie, le Tibet et la Tartarie.

2. Le *climat* est très-froid dans le N., tempéré dans le centre, et très-chaud dans le sud.

4. *Pékin*, capitale, est une des plus grandes villes du monde.

3.—Indes.

1. Les *Indes* comprennent deux grandes presqu'îles du S. de l'Asie et renferment Annam, Siam, le Birman, et l'Hindoustan.

2. Le *climat*, en général, est extrêmement chaud.

3. Les principaux *produits* sont le riz et le thé.

4. Les principales *villes* sont *Hué*, *Bangkok* et *Calcutta*.

LEÇON XXIX.

1.—Perse.

1. La *Perse* est située à l'O. des Indes. Sa surface est diversifiée par des montagnes et des déserts.

2. Le *climat* est froid dans le N., chaud et malsain dans le sud.

3. La Perse est renommée pour ses beaux châles et ses beaux tapis.

4. *Téhéran* est la capitale.

2.—Turquie d'Asie.

1. La *Turquie d'Asie*, ou Asie Mineure, est située dans l'O. de l'Asie ; elle comprend la Palestine, appelée aussi la Terre-Sainte.

2. Cette contrée offre diverses sortes de *climats*.



LES CÈDRES DU LIBAN.

3. Le *sol* est productif mais généralement mal cultivé. Les grenades, les olives, les figues figurent parmi les principales productions.

4. *Constantinople*, située dans la Turquie d'Europe, est la capitale.

3.—Arabie.

1. *L'Arabie* est une grande presqu'île située dans le S.-O. de l'Asie. Elle est remarquable par ses vastes déserts.

2. Le *climat* est chaud et sec.

3. Ses habitants, appelés Bédouins, sont errants et vivent sous des tentes.

4. La *Mecque* est sa princ. ville.

4.—Japon.

1. Le royaume du *Japon* est formé d'un groupe d'îles situées à l'E. de la Chine.

2. Le *climat*, en général, est variable, mais extrêmement froid dans le nord.

3. Le *sol* est peu fertile, mais soigneusement cultivé ; les arbres produisant le camphre et le vernis, sont indigènes du Japon.

4. *Yeddo*, cap., est la ville la plus populeuse du monde, après Londres.

AFRIQUE.

ANIMAUX DE L AFRIQUE.

LEÇON XXX.

1. *L'Afrique* est bornée au N. par la Méditerranée ; à l'E., par la mer Rouge et l'Océan Indien ; et, au S. et à l'O., par l'Atlantique.

2. Ses principales *divisions* politiques sont les Etats Barbaresques, l'Egypte, la Nubie, l'Abyssinie, l'Afrique Orientale, l'Afrique Méridionale, l'Afrique Occidentale, et l'Afrique Centrale.

3. Les principales *Iles* sont Madagascar, les Iles du Cap-Vert, et les Canaries.

4. Les principaux *Caps* sont Gardafui, Bonne-Espérance, et le Cap-Vert.

2.

1. Les *Montagnes* les plus remarquables sont l'Atlas, les monts Kong, et les monts Neigeux.

2. Les principaux *Golfes* sont ceux d'Aden et de Guinée.

3. Les *Détroits* sont ceux de Bab-el-Mandeb, de Gibraltar, et le canal de Mozambique.

4. Les *Lacs* les plus remarquables sont Tchad, Victoria, Albert, Tanganytica et Niassa.



PYRAMIDES D'EGYPTE.

5. Les principales *Rivières* sont le Nil, le Niger et le Congo.

LEÇON XXXI.

1.—Etats Barbaresques.

1. Ces *Etats* occupent le N. de l'Afrique, et sont bornés par la Méditerranée, au Nord. Ils comprennent le Maroc, l'Algérie, Tunis et Tripoli.

2. Le *climat* est excellent, surtout dans le nord.

3. Le *sol* est très-fertile, il produit tous les grains et les fruits de l'Europe méridionale.

4. Les principales villes sont *Alger* et *Maroc*.

2.—Egypte.

1. L'*Egypte* occupe la vallée du Nil. Elle est célèbre pour ses antiquités : temples, pyramides, etc., et ses souvenirs historiques.

2. Le *climat* de l'Egypte est extrêmement chaud.

3. Son *sol* est très-fertile, surtout en blé ; il produit aussi le sucre, le coton, etc.

4. Le *Caire*, capitale, est située sur la rive droite du Nil.

3.—Nubie et Abyssinie.

1. Ces contrées sont situées au sud de l'Egypte.

2. Le *climat* de la Nubie est chaud et sec, celui de l'Abyssinie est doux et agréable.

3. La Nubie présente surtout des déserts sablonneux ; l'Abyssinie est montagneuse, mais fertile.

4. *Khartoum* et *Gondar* sont les principales villes.

LEÇON XXXII.

1.—Afrique Orientale.

1. L'*Afrique Orientale* comprend Natal, la Cafrérie, et la Colonie du Cap.

2. Le *climat* de cette partie de l'Afrique est tempéré et agréable.

4. Le *sol* est fertile ; il produit le coton, le sucre, le café, etc.

4. *Cape-Town* est la principale ville. Presque toute cette contrée appartient à la Grande-Bretagne.

2.—Afrique Méridionale.

1. L'*Afrique Méridionale* comprend Natal, la Cafrérie et la Colonie du Cap.

2. Le *climat* est tempéré et agréable. Le *sol* est fertile; il produit le coton, le sucre, le café, etc.

3. Prés de la moitié de la population de la Colonie du Cap est d'origine anglaise.

4. *Cape-Town* est la capitale.

3.—Afrique Occidentale.

1. L'*Afrique Occidentale* embrasse plusieurs Etats, dont les principaux sont la Guinée Supérieure, la Guinée Inférieure et la Sénégambie.

2. Le *climat* sur les côtes est chaud et malsain.

3. Ces contrées sont habitées particulièrement par des nègres. Les Européens ont des établissements sur les côtes.

4. Les principaux objets de commerce sont la poudre d'or, l'ivoire, l'huile de palmier, et les plumes de fantaisie.

4.—Afrique Centrale.

1. L'*Afrique Centrale* comprend le Sahara, le Soudan, et l'Ethiopie.

2. Le *Sahara* ou *Grand Désert* est un vaste plateau couvert de rochers, de sable et de sel. On y trouve des points fertiles, qu'on appelle oasis.

3. Le *Soudan* se divise en un grand nombre de petits états, très-peu connus.

4. L'*Ethiopie* actuelle est une vaste région inconnue située au S. du Soudan.

OCEANIE.



ANIMAUX DE L'OCÉANIE

LEÇON XXXIII.

1. On divise généralement l'*Océanie* en trois grandes parties : la Malaisie, l'Australasie, et la Polynésie.

1.—Malaisie.

2. La *Malaisie* est toute entière dans le zone torride; elle comprend plusieurs îles importantes, dont les principales sont Bornéo, Sumatra, Java, et Célèbes.

3. Le *climat* est chaud et salubre, excepté sur les côtes.

4. Les principales productions sont le camphre, le poivre et autres épices.

2.—Australasie.

1. L'*Astralasie* comprend l'Australie, Papua ou Nouvelle-Guinée, la Nouvelle-Zélande, et plusieurs autres îles moins importantes.

2. Le *climat*, en général, est chaud et salubre.

3. Dans le S. et l'E., il y a de fertiles plaines, produisant tous les grains et les fruits de l'Europe ;

l'Australie possède des mines d'or considérables.

4. La capitale de l'Australie est *Sydney*, et *Melbourne* en est la principale ville.

3.—Polynésie.

1. La *Polynésie* comprend toutes les îles de l'Océan Pacifique qui ne sont pas incluses dans les deux divisions précédentes.

2. Les principaux groupes sont les îles Sandwich, les îles de la Société, les Carolines, les îles des Amis et des Marquises.

3. Un grand nombre de ces îles sont l'ouvrage de petits insectes appelés madrépores.

4. Les habitants de la Polynésie sont une variété de la race Malaise et de colons Européens.

Carte de l'Hemisphere Oriental.

Divisions.—Montrez l'Europe.—Montrez l'Asie.—Montrez l'Afrique.—Montrez l'Australie.

Quel Océan occupe la partie septentrionale ? *Ae.*

Océans et Mers.—Quel Océan est situé à l'est de l'Hémis. Oriental ? *Pe.*

—Au sud de l'Asie ? *In.*

Quel Océan est situé à l'O. de l'Afrique? *At.*

Quelle Mer trouve-t-on au nord-ouest de l'Europe ? *Nd.*

—Entre l'Afrique et l'Asie? *M.R.*

—Entre l'Europe et l'Afrique ? *Me.*

Quelles Mers sont situées entre l'Europe et l'Asie ? *Ne., Ce.*

Iles.—Quels sont les deux groupes d'Iles situés au N. de l'Europe ? *Sn., N.-Z.*

—A l'est de l'Asie ? *Sn., Jn.*

Quel groupe est situé au sud-est de l'Asie ? *Ps.*

Quelles sont les trois grandes Iles situées sous l'équateur ? *Sa., Bo., Cs.*

Quelle Ile trouve-t-on au nord de l'Australie ? *N.-G.*

Quelle grande Ile se trouve à l'est de l'Afrique ? *Mr.*

Quelles Iles sont situées à l'ouest de l'Europe ? *Bs.*

Quelle Ile trouve-t-on au sud de l'Australie ? *Te.*

Caps.—Quel Cap se trouve sur la côte nord de l'Asie? *C.-E.*

Quel Cap est situé au sud ? *Cn.*

Quel Cap est situé au sud de l'Afrique ? *B.-E.*—A l'ouest ? *Vt.*

Montagnes.—Quelles Montagnes sont situées entre l'Europe et l'Asie ? *Ol.*

—Dans le centre de l'Asie ? *Al.*

Montrez les monts Himalaya.—Les monts Caucase.—Les monts Atlas.

Golfes et Baies.—Quel Golfe trouve-t-on au nord de l'Asie ? *Oi.*

—Au sud? *Be.*—Au S.-O. de l'Afrique? *Ge.*

—A l'ouest de l'Europe ? *Ge.*

Détroits.—Quel Détroit est situé au sud de l'Asie ? *Ma.*

Quel Détroit y a-t-il entre l'Afrique et l'Asie ? *B.-M*

—Entre l'Afrique de l'Europe ? *Gr.*

Quel Canal est à l'est de l'Afrique ? *Me.*

Rivières.—Nommez trois Fleuves de l'Asie se déchargeant dans l'Océan Arctique ? *Oi., Yi., La.*

Quel est le Fleuve qui prend sa source dans la chaîne Altaï et se jette dans la mer d'Okhotsk ? *Ar.*

Quel est le Fleuve qui se jette dans la mer Jaune ? *Y.-K.*

Quel est le Fleuve, en Afrique, qui se jette dans la Méditerranée ? *Nl.*

Quels sont les Fleuves qui se jettent dans la mer Caspienne ? *Va., Ol.*

Par quel Isthme l'Afrique est-elle unie à l'Asie ? *Sz.*

HÉMISPHÈRE ORIENTAL
EUROPE
ASIE
AFRIQUE
OCÉAN PACIFIQUE
OCÉAN ATLANTIQUE
OCÉAN INDIEN
OCÉAN ANTARCTIQUE
Mer d'Arabie
Golfe du Bengale
Mer de Chine
Iles Philippines
Célèbes
Golfe de Guinée
Ile de Madagascar
Cap de bonne Espérance
AUSTRALIE
Tasmanie

Superficie et Population des Différents Etats du Globe.

I.—GRANDES DIVISIONS.

Divisions.	Superficie, mil. car.	Population.
Amér. Sept.	7,857,191	58,582,611
Amér. Mérid.	6,552,000	26,880,000
Europe	3,765,938	297,358,000
Asie	15,196,000	629,329,000
Afrique	11,008,000	96,244,000
Océanie	4,586,800	32,275,000
Total	48,965,929	1,140,668,611

II.—Amérique Septentrionale.

Contrées.	Superficie.	Population.
Puiss. du Canada.	3,039,161	3,744,915
Terreneuve	42,000	130,000
Iles Bermudes	30	14,796
Amérique Danoise	790,000	74,000
Etats-Unis	3,010,000	38,549,000
Mexique	668,000	9,176,000
Amér. Centrale	213,000	2,691,500
Antilles	95,000	4,202,400
Total	7,857,191	58,582,611

III.—Amérique Méridionale.

Colombie	457,000	2,795,000
Vénézuéla	410,000	1,565,000
Equateur	208,000	1,040,000
Guyanes	169,000	221,000
Brésil	2,724,000	10,045,000
Pérou	540,000	3,500,000
Bolivie	480,000	1,987,000
Chili	260,000	2,146,000
La Plata	880,000	1,337,000
Paraguay	74,000	1,737,000
Uruguay	70,000	387,000
Patagonie	280,000	120,000
tal	6,552,000	26,880,000

IV.—Europe.

Contrées.	Superficie mil. car.	Population.
Iles Britanniques	122,550	31,817,000
Danemark	15,900	1,900,000
Suède	170,000	4,159,000
Norwége	123,000	1,712,000
Russie	2,095,000	68,390,000
France	198,000	36,592,000
Belgique	11,313	5,000,000
Hollande	13,890	3,700,000
Allemagne	74,785	16,070,000
Prusse	136,000	24,040,000
Autriche	240,000	36,000,000
Suisse	15,250	2,669,000
Espagne	177,000	16,732,000
Portugal	34,500	3,995,000
Italie	111,109	26,104,000
Etats de l'Eglise	4,891	692,000
Turquie	203,500	16,437,000
Grèce	19,250	1,349,000
Total	3,765,938	297,358,000

V.—Asie.

Sibérie	5,249,000	8,329,000
Chine	4,088,000	369,000,000
Japon	260,000	35,000,000
Hindoustan	1,250,000	130,000,000
Indo-Chine	920,000	42,000,000
Turkestan	640,000	6,500,000
Afghanistan	300,000	4,000,000
Beloutchistan	150,000	1,500,000
Perse	470,000	9,000,000
Turquie d'Asie	669,000	16,000,000
Arabie	1,200,000	8,000,000
Total	15,196,000	629,329,000

VI.—Afrique.

Sahara	2,400,000	2,000,000
Maroc	222,000	8,500,000
Alger	190,000	3,000,000

Superficie et Population des Différents Etats du Globe.
(*Suite.*)

Afrique.—(*Suite*).

Contrées.	Superficie mil. car.	Population.
Tripoli	131,000	700,000
Tunis	69,000	3,300,000
Egypte	180,000	5,214,000
Nubie	320,000	500,000
Abyssinie	280,000	3,000,000
Libéric	40,000	80,000
Afrique Orientale	642,000	4,900,000
Sierra-Leone..[&c.	44,000	50,000
Kord'fan,Sennaar	100,000	1,000,000
Colonie du Cap	230,000	200,000
Hottentotie	350,000	1,000,000
Basse Guinée	370,000	7,000,000
Haute Guinée	250,000	5,000,000
Sénégambie	380,000	8,900,000
Soudan	1,400,000	20,000,000
Afrique Australe.	2,904,000	12,200,000
Madagascar	194,000	4,700,000
Autres Iles	312,000	5,000,000
Total.	11,008,000	96,244,000

VII.—Océanie.

Contrées.	Superficie mil. car.	Population.
Malaisie.		
Sumatra	140,000	4,500,000
Flores, Timor	49,000	600,000
Java	50,000	12,000,000
Bornéo	300,000	3,000,000
Célèbes	71,000	2,000,000
Moluques	33,800	2,750,000
Philippines	120,000	4,000,000
Australasie.		
Australie	3,120,000	1,505,000
Tasmanie	28,000	100,000
Nouvelle-Zélande.	106,000	265,000
Nouvelle-Guinée	270,000	700,000
Polynésie.		
Iles Sandwich	7,000	63,000
Le reste de la Polynésie	144,000	392,000
Autres Iles	148,000	400,000
Total	4,586,800	32,275,000

Altitude des Principales Montagnes du Globe.

	Pieds.
Mont Everest, Himalaya, Asie	29,000
Dhawalahiri, Himalaya, Asie	28,000
Aconcagua, Chili, Amérique Mér.	23,000
Tupurgato, Chili, Amerique Mér.	22,000
Sorata, Bolivie, Amérique Mer.	21,300
Chuquibamba, Pérou, Amérique Mér.	21,000
Hindou-Kouth, Caboul, Asie	20,000
Kilimanjaro, M. de la Lune, Afrique.	20,000
Kenia, M. de la Lune, Afrique	20,000

Longueur des Principales Rivières du Globe.

	Miles.
Mississippi-Missouri, Amér. Sept.	4,100
Amazones, Amérique Méridionale	3,600
Nil, Afrique	3,600
Mackenzie, Amérique Septentrionale.	2,600
Lena, Asie	2,600
Niger, Afrique	2,600
Rio de la Plata	2,250
St Laurent, Amérique Sept.	2,200
Parana, Amérique Méridionale	2,000

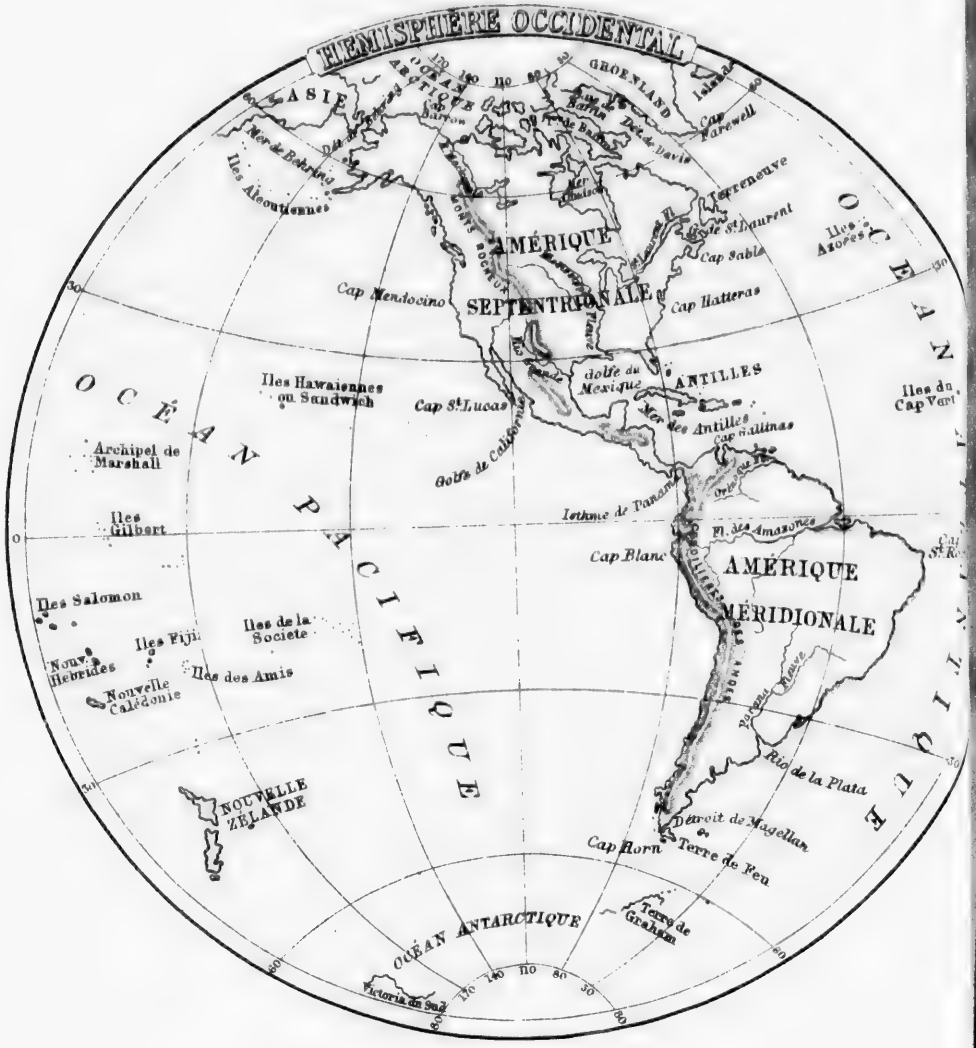
HEMISPHÈRE OCCIDENTAL
ASIE
GROENLAND
Cap Farewell
Mer de Behring
Iles Aléoutiennes
Terreneuve
Cap Sable
Iles Açores
AMÉRIQUE SEPTENTRIONALE
Cap Mendocino
Cap Hatteras
OCÉAN PACIFIQUE
Iles Hawaiennes ou Sandwich
Cap St Lucas
golfe du Mexique
ANTILLES
Iles du Cap Vert
Archipel de Marshall
Golfe de Californie
Cap Gallinas
Iles Gilbert
Isthme de Panama
Fl. des Amazones
Cap Blanc
AMÉRIQUE MÉRIDIONALE
Iles Salomon
Iles de la Société
Iles Fidji
Nouv. Hébrides
Iles des Amis
Nouvelle Calédonie
Rio de la Plata
NOUVELLE ZÉLANDE
Détroit de Magellan
Cap Horn
Terre de Feu
Terre de Graham
OCÉAN ANTARCTIQUE
Victoria du Sud

Carte de l'Hemisphere Occidental.

Divisions.—Quelles sont les deux grandes Divisions de l'Hémisphère occidental? *Am. S. et Am. M.*

Océans.—Quel Océan est situé au N.? *Ae.*

Quel Océan est situé à l'est? *At.*

Quel Océan est situé au sud? *An.*

Quel Océan est situé à l'ouest? *Pe.*

Quelle Mer est située au nord de l'Amérique Méridionale? *As.*

Iles.—Quelle grande Ile est située au N.-E. de l'Amérique Septentrionale? *Gd.*

Quelle Ile est située à l'E. du Groënland? *Ie.*

Quelle Ile se trouve à l'E. de l'Amérique Septentrionale? *Te.*

Quel groupe d'Iles trouve-t-on entre les deux Amériques? *As.*

Quelle Ile est située au S. de l'Amérique Méridionale? *T. F.*

Quels groupes d'Iles se trouvent à l'O. de l'Amérique Septentrionale? *As., Sh.*

Quels groupes sont situés à l'O. de l'Amérique Meridionale? *As., Sé., N.-Z.*

Quelle Terre est située dans l'Océan Antarctique au sud de l'Amérique Méridionale? *Gm.*

Quelle Terre se trouve dans le même Océan, au sud de la Nouvelle-Zélande.

Caps.—Quel Cap est situé au N. de l'Amérique Septentrionale? *Bu.*

Par quel Cap se termine le Groënland au sud? *Fl.*

Quels Caps trouve-t-on sur la côte orientale? *Se., Hs.*

—Sur la côte occidentale? *Mo., S.-L.*

Quel Cap trouve-t-on au N. de l'Amérique Méridionale? *Gs.*

Quel Cap trouve-t-on à l'est? *S.-R.*

Quel Cap trouve-t-on au sud? *Hn.*

Quel Cap est situé à l'ouest? *Bc.*

Quel Cap trouve-t-on à l'ouest de l'Amérique Septentrionale? *Mo.*

Montagnes.—Montrez les Montagnes Rocheuses.

Quelle chaine de Montagnes trouve-t-on dans l'O. de l'Amérique Méridionale? *As.*

Baie et Golfes.—Quelle grande Baie est située dans le nord de l'Amérique Septentrionale? *Hn.*

Quel Golfe est situé dans le sud de l'Amérique Septentrionale? *Me.*

Quel Golfe est situé à l'est? *S.-L.*

Quel Golfe trouve-t-on à l'ouest? *Ce.*

Montrez la partie de l'Asie qui se trouve dans le nord de cet hémisphère.

Détroits.—Quel Détroit sépare l'Amérique de l'Asie? *Bg.*

Quel Détroit y a-t-il entre la mer de Baffin et le Groënland? *Ds.*

Quel Détroit sépare l'Ile de Terre de Feu de la terre ferme? *Mn.*

Quel est l'Isthme qui sépare les deux Amériques? *Pa.*

Rivières.—Quel est le Fleuve qui se décharge dans l'Océan Arctique? *Me.*

Quel Fleuve trouve-t-on dans l'Amérique Septentrionale, se jetant dans l'Atlantique? *S.-L.*

Quels sont les deux Fleuves qui se jettent dans le Golfe du Mexique? *Mi., R. G.*

Quels sont les deux Fleuves du nord de l'Amérique Méridionale qui se jettent dans l'Atlantique? *Oe., As.*

Dans quelle direction l'Amérique Méridionale est-elle de l'Amér. Septentrionale?

AMERIQUE SEPTENTRIONALE

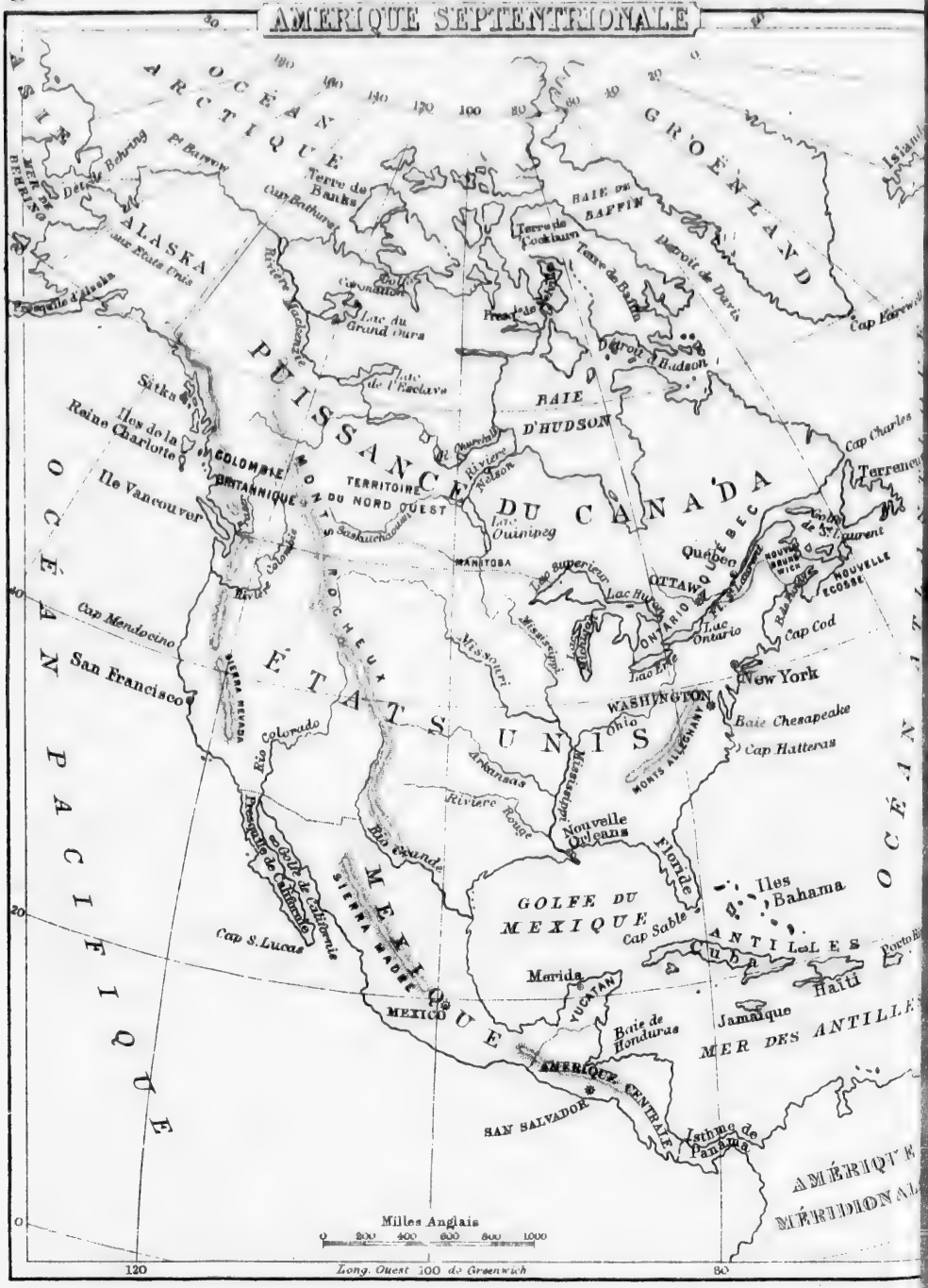

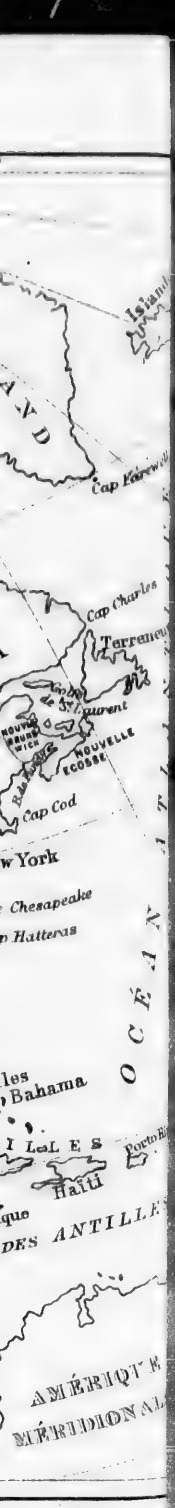

Carte de l'Amerique Septentrionale.

Bornes.—Par quoi l'Amérique Septentrionale est-elle bornée au nord ?
Par quel Océan est-elle bornée à l'est ?
Par quelles eaux est-elle bornée au sud ? *M.A.*, *G.M.*—A l'ouest ? *O.P.*

Divisions.—Quelle grande Contrée occupe le nord de l'Amérique Septentrionale ? *P.C.*
Quel Territoire est situé à l'ouest de la Puissance du Canada ? *Aa.*
Quelle est la Capitale du Canada ? *Oa.*
Quelle grande République occupe le centre de l'Amérique Septentrionale ?
Quelle est la Capitale des Etats-Unis ? *Wn.*
Quelle Contrée est située au sud des Etats-Unis ? *Me.*
Quelle est la Capitale du Mexique ? *Mo.*
Quelle Contrée trouve-t-on au sud-est du Mexique ? *A.-C.*

Iles.—Quelle grande Ile se trouve au nord-est de la carte ? *Gd.*
Quelle Ile est située à l'est du Groënland ? *Ie.*
Quelle grande Ile trouve-t-on à l'est du Canada ? *Te.*
Nommez les quatre principales Iles des Antilles. *Ca.*, *Ii.*, *P.-R.*, *Je.*
Nommez les deux grandes Iles situées à l'O. de la Puissance du Canada. *Vr.*, *Q.-C.*

Montagnes.—Quelles chaînes de Montagnes sont situées dans l'ouest ? *Rs.*, *S.N.*, *S.M.*
Nommez celle qui est à l'est. *Ay.*

Caps.—Quel Cap trouve-t-on au sud du Groënland ? *Fl.*
Quels Caps sont situés à l'est des Etats-Unis ? *Cd.*, *Ils.*
Quel Cap est situé au sud-est ? *Se.*
Montrez les caps Mandocino et S.-Lucas.

Mer, Golfes, etc.—Quelle Mer trouve-t-on au sud-est des Etats-Unis ? *As.*
Quel Golfe est situé à l'E. du Canada ? *S.-L.*
Quelle grande Baie se trouve dans le nord de la Puissance du Canada ? *Hn.*
Quel Golfe est situé au sud des Etats-Unis ? *Me.*
Montrez le golfe de Californie.
Quelle Baie est située à l'ouest du Groënland ? *Bn.*

Détroits.—Quel Détroit unit la baie d'Hudson à l'Atlantique ? *Hn.*
Quel Détroit sépare l'Amérique Septentrionale de l'Asie ? *Bg.*
Par quel Détroit la baie de Baffin est-elle unie à l'Atlantique ? *Ds.*

Lacs.—Montrez le lac Supérieur.
Nommez les quatre Lacs qui forment une chaîne avec le lac Supérieur. *Mn.*, *Hn.*, *Eé.*, *Oo.*
Quels sont les trois principaux Lacs situés dans l'ouest de la Puissance du Canada ? *G.-O.*, *Es.*, *Wg.*

Rivières.—Quel Fleuve, coulant du sud au nord, se jette dans l'Océan Arctique ? *Me.*
Quels sont les deux Fleuves qui se jettent dans l'ouest de la baie d'Hudson ? *Cl.*, *Nn.*
Quel est le Fleuve qui, coulant à l'est, se décharge dans l'Atlantique ? *S.-L.*
Quels sont les principaux Tributaires du Mississippi. *Mi.*, *As.*, *R.R.*, *Oo.*
Quels sont les deux Fleuves qui se jettent dans le Pacifique ? *Co.*, *Ce.*

Carte de l'Amerique Meridionale.

Bornes. — Comment l'Amérique Méridionale est-elle bornée au nord ?
Quels sont ses bornes à l'est ?
Comment est-elle bornée au sud et à l'ouest ?

Divisions. — Quelles sont les deux Contrées les plus au nord ? *Ce., Va.*
Quelles sont leurs Capitales ? *Ba., Cs.*
Quelle Contrée est située à l'est du Vénézuéla ? *Ge.*
Quelle Contrée occupe la plus grande partie de l'est de l'Amérique Méridionale ? *Bl.*
Quelle est la Capitale du Brésil ? *R.-J.*
Quels sont les deux petits Etats situés au sud du Brésil ? *Py., Uy.*
Quelle est la Contrée la plus méridionale de l'Amérique ? *Pe.*
Quels Pays trouve-t-on au nord de la Patagonie ? *C. A., Ci.*
Quels sont les Capitales de ces deux pays ? *B.-A., So.*
Nommez les trois Etats situés à l'ouest du Brésil. *Be., Pu., Er.*
Quelles sont leurs Capitales ? *Ca., La., Qo.*

Iles. — Quelle Ile trouve-t-on à l'embouchure de l'Amazone ? *Js.*
Quel groupe d'Iles est situé à l'est de la Patagonie ? *Fd.*
Quelle Ile se trouve au sud de la Patagonie ? *T. F.*
Quelles sont les Iles situées à l'ouest du Chili ? *J.-F.*

Montagnes et Caps. — Quelle chaîne de Montagnes voit-on dans l'ouest ? *As.*
Quelle chaîne trouve-t-on à l'est ? *Be.*
Quel Cap est situé au Nord de l'Amérique Méridionale ? *Gs.*
Quel est le Cap situé à l'est ? *S.-R.*
Quel est celui qui est au sud ? *Hn.*
Nommez celui qui est le plus à l'ouest. *Bo.*
Mers, golfes, etc. — Quelle Mer est située au nord ? *As.*
Quelle Baie trouve-t-on à l'est du Brésil ? *T.-S.*
Quel Golfe se trouve à l'est de la Patagonie ? *S.-G.*
Quel Golfe trouve-t-on à l'ouest de l'Equateur ? *Gl.*
Quel Détroit sépare l'Ile de Terre de Feu de la Patagonie ? *Mn.*
Quel Lac est situé dans le Vénézuéla ? *Mo.* — Dans le Pérou ? *Ta.*

Rivières. — Quel est le plus grand Fleuve de l'Amérique Méridionale ? *As.*
Dans quelle contrée est situé le fleuve des Amazones ? *Bl.*
Quels sont ses principaux Tributaires ? *Ma., Xu.*, et *Negro.*
Quel Fleuve est situé au nord de l'Amazone, et lui est parallèle ? *Oe.*
Quel autre Fleuve, coulant du sud au nord, se jettte dans le fleuve *Para* ? *Ts.*
Dans quelle direction la Madeira coule-t-elle ?
Quel Fleuve, situé dans le sud-est, se jette dans l'Atlantique ? *Pa.*
Comment se nomme la partie supérieure du Rio de la Plata ? *Pa.*
Quel est le Tributaire du Parana ? *Py.*
Dans quelle direction le fleuve Paraguay coule-t-il ?
Quelles Villes sont situées sur les bords du Rio de la Plata ? *B.-A., Mo.*

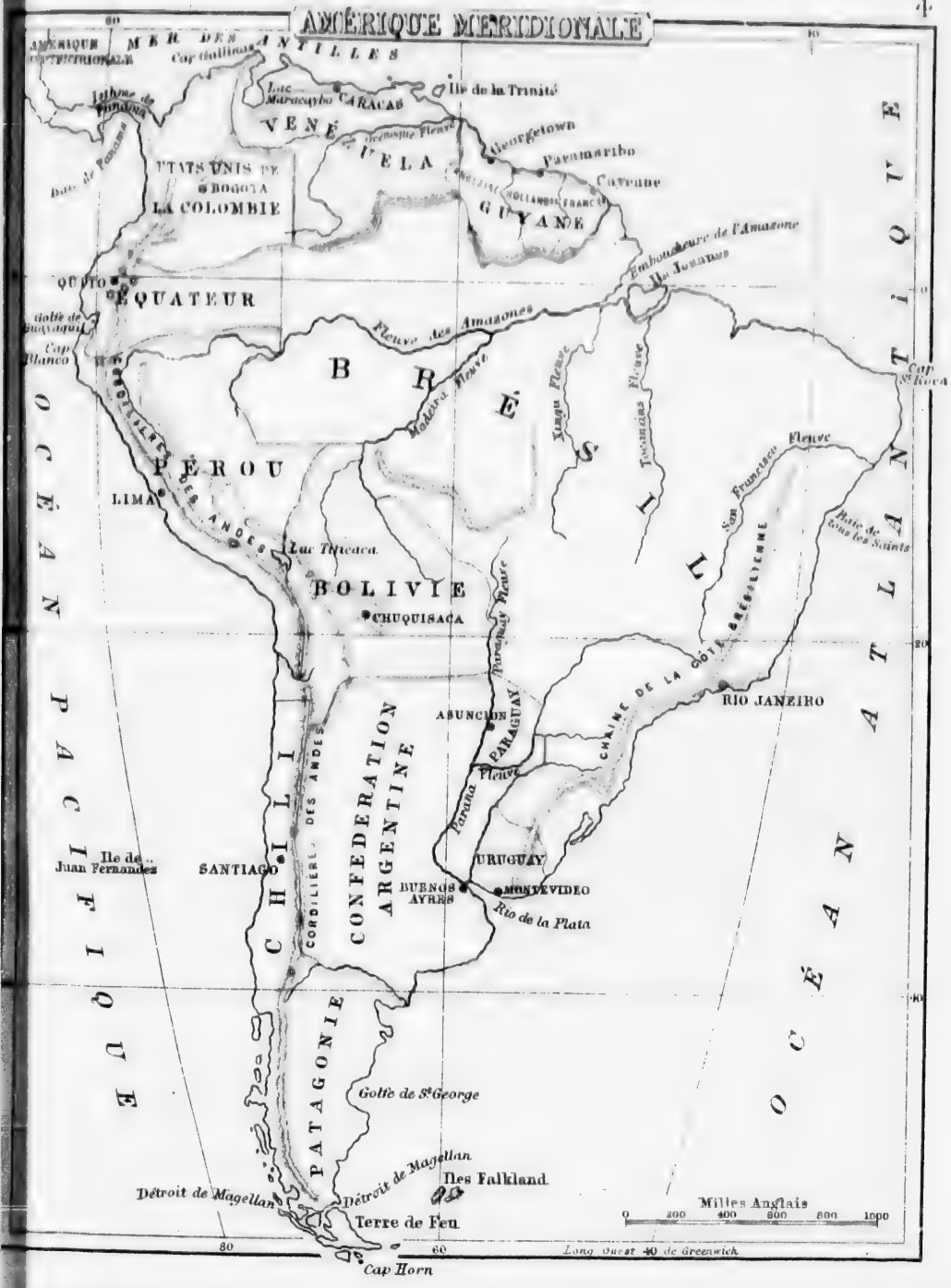
AMÉRIQUE MERIDIONALE
MER DES ANTILLES
Cap Gallinas
Lac Maracaybo
CARACAS
Ile de la Trinité
Isthme de Panama
VENÉZUELA
Georgetown
Paramaribo
Cayenne
ETATS UNIS DE COLOMBIE
BOGOTA
LA COLOMBIE
GUYANE
Baie de Panama
QUITO
ÉQUATEUR
Golfe de Guayaquil
Cap Blanco
Fleuve des Amazones
Embouchure de l'Amazone
Ile Joannes
BRÉSIL
Madeira Fleuve
Xingu Fleuve
Tocantins Fleuve
Cap St Roch
PÉROU
LIMA
CORDILLIÈRES DES ANDES
Lac Titicaca
BOLIVIE
CHUQUISACA
Paraguay Fleuve
San Francisco Fleuve
Baie de Tous les Saints
CHAINE DE LA CÔTE OCCIDENTALE
RIO JANEIRO
ASUNCION
PARAGUAY
Fleuve
Parana
CHILI
CONFEDERATION ARGENTINE
Ile de Juan Fernandez
SANTIAGO
CORDILLIÈRES DES ANDES
URUGUAY
BUENOS AYRES
MONTEVIDEO
Rio de la Plata
PATAGONIE
Golfe de St George
Détroit de Magellan
Iles Falkland
Terre de Feu
Cap Horn
OCÉAN PACIFIQUE
OCÉAN ATLANTIQUE
Milles Anglais
0 200 400 600 800 1000
Long. Ouest de Greenwich

Carte de la Province d'Ontario.

Rivières et Lacs.—Par quelle Rivière la Province d'Ontario est-elle bornée au nord-ouest ? *Os.*

—Au sud-ouest ? *S.-L.*

Par quels Lacs est-elle bornée au sud ? *Oo., Ee.*

—Par quels Lacs à l'ouest ? *Hn., Sr.*

Quel Lac est situé entre les lacs Huron et Erié ? *S.-C.*

Quelles Rivières unissent ces trois Lacs ? *S.-C., Dt.*

Quel Lac est situé vers le centre de la Province ? *Sc.*

Quel Lac est uni à la baie Georgienne par la rivière Française (French) ? *Ne.*

Quels sont les principaux Tributaires de la rive droite de l'Outaouais ? *Pa., Ma.*

Quelle Rivière se jette dans le lac Ontario par la baie de Quinté ? *Trent.*

Quelle Rivière se jette dans le lac Erié ? *Ge.* [*Te.*

Quelle est la Rivière qui débouche dans le lac Ste.-Claire ?

Quelle Rivière porte les eaux du lac Simcoe à la baie Georgienne ? *Sn.*

Quelle Rivière unit les lacs Erié et Ontario ? *Na.*

Quelle Chute remarquable est formée par cette Rivière ?

Quel Canal unit Kingston à Ottawa ? *Rideau.*

Villes.—Quelle est la Capitale d'Ontario ? *To.*

Sur quel Lac est-elle située ? *Oo.*

Quelle Ville est située à l'extrémité O. du lac Ontario ? *Hn.*

Quelle Ville trouve-t-on à l'extrémité nord-est de ce lac ? *Kn.*

Quelle Ville est située sur la Tamise, dans le comté de Middlesex ? *Ls.*

—Dans les comtés de Leeds, Grenville, Stormont ? *Be., Pt., Cl.*—Montrez la rivière Gatineau.

Quelle ville est située vis-à-vis l'embouchure de la rivière Gatineau ? *Oa.*

De quel Etat la ville d'Ottawa est-elle la Capitale ? *P. C.*

Dans quel Comté est située la ville de Toronto ? *Yk.*

Dans quel Comté est située la ville de Kingston ? *Fc.*

Dans quel Comté est située la ville de Londres ? *Mx.*

—de Hamilton ? *Wh.*—de Brantford ? *Bt.*

Sur quel Lac se trouve Goderich ? *Hn.*

Dans quel Comté trouve-t-on Guelph ? *Wn.*

Comtés—Quels sont les comtés situés sur le S.-Laurent ? *Gy., St., Ds., Ge., Ls., Fc.*

Quels sont les Comtés qui sont situés sur l'Outaouais ? *Pt., Rl., Cn., Rw*

—Sur le lac Huron ? *Bc., Hn., Ln.*

Quels sont les Comtés qui sont baignés par le lac Ontario ? *An., Lr., P.-E., Nd., Dn., Oo., Yk., Pl., Hn., Wh., Ln.*

Quels sont ceux qui sont baignés par le lac Erié ? *Wd., Mk., Hd., Nk., En., Bl., Kt., Ex.*

Montrez les quatre Districts qui se trouvent au nord. *Ma., P. S., Ne., Aa.*

Quels sont les Comtés baignés par la rivière Trent et ses tributaires ? *Va., Ph., Nd., Hs.*

—Par la rivière Grande ? *Wn., Wo., Bt., Hd.*

—Par la Tamise ? *Ex., Kt., Bl., En, Mx., Ph.*

Iles, Presqu'ile, etc.—Quelle Ile est située au-dessus de la chute de Niagara ? *Grande.*

Quelle grande Ile est située dans le lac Huron ? *Mn.*

Quelle Presqu'ile est formée par la baie de Quinté ? *P.-E.*

Quelle Ville est située à l'extrémité O. du lac Ontario? *Hm.*
Quelle Ville trouve-t-on à l'extrémité nord-est de ce lac? *Kn.*
Quelle Ville est située sur la Tamise, dans le comté de Middlesex? *Ls.*
—Dans les comtés de Leeds, Grenville, Stormont? *Be., Pt., Cl.*—Montrez la rivière Gatineau.
—Par la Tamise? *Er., Kt., Bl., En, Mr., Ph.*

Iles, Presqu'ile, etc.—Quelle Ile est située au-dessus de la chute de Niagara? *Grande.*
Quelle grande Ile est située dans le lac Huron? *Mn.*
Quelle Presqu'ile est formée par la baie de Quinté? *P.-E.*

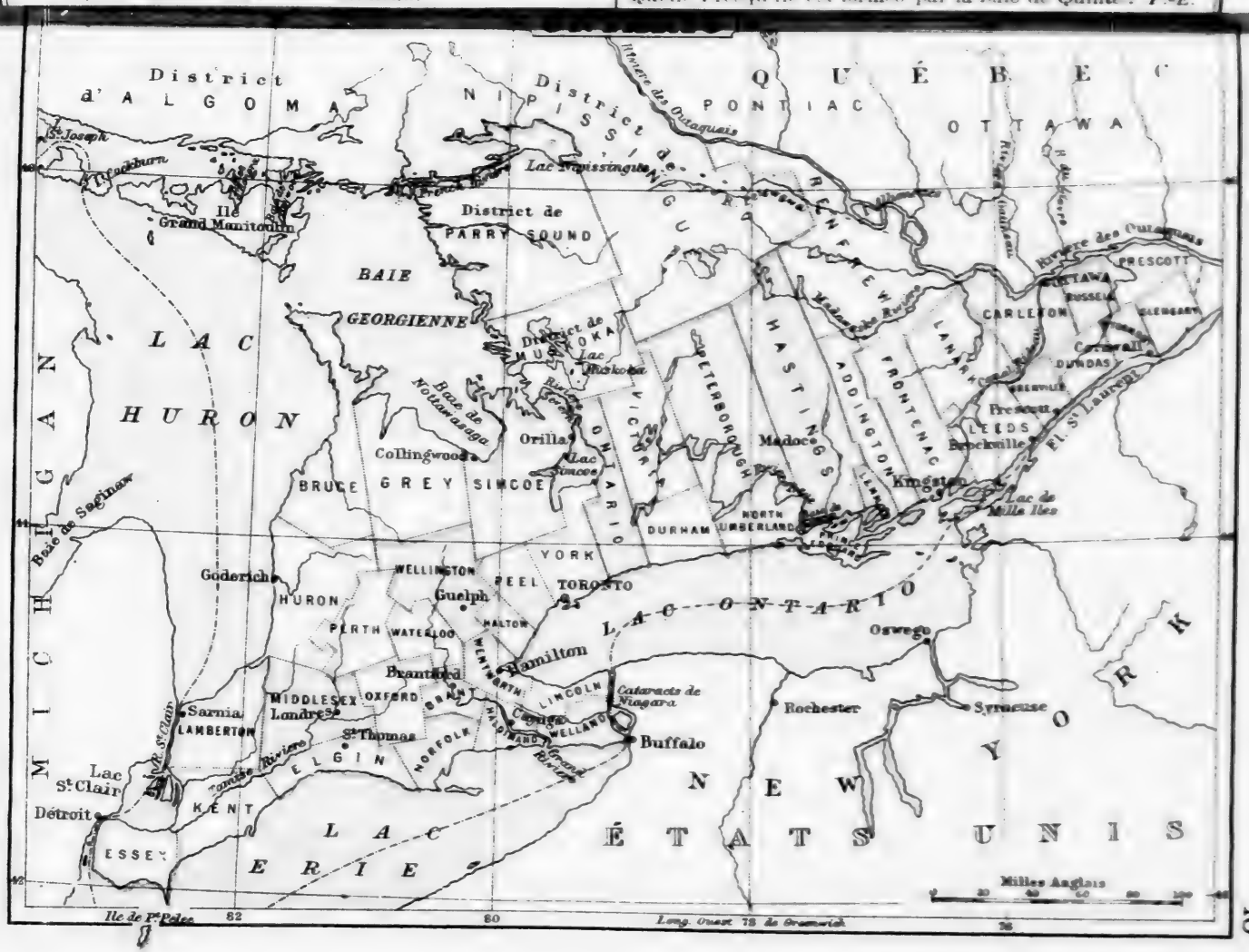

Tableau I.—Comtés de la Province de Québec.

Comtés.	Population.	Comtés.	Population.	Comtés.	Population.
Pontiac	15810	Berthier	19804	Mégantic	18879
Outaouais	38629	Maskinongé	15079	Arthabaska	17611
Argenteuil	12806	St-Maurice	19449	Lotbinière	20606
Deux-Montagnes	15615	Champlain	22052	Lévis	24831
Vaudreuil	11003	Nicolet	23262	Dorchester	17779
Soulanges	10805	Yamaska	16317	Bellechasse	17637
Huntingdon	16304	Richelieu	20048	Montmagny	13555
Beauharnois	14757	St-Hyacinthe	18310	Portneuf	22569
Châteauguay	16166	Bagot	19491	Québec	79306
Napierville	11688	Rouville	17634	Montmorency	12085
St-Jean	12122	Iberville	15413	Charlevoix	15611
Laprairie	11861	Missisquoi	16922	L'Islet	13517
Chambly	10498	Brome	13757	Kamouraska	21254
Verchères	12717	Stanstead	13138	Témiscouata	22491
Hochelaga	132865	Shefford	19077	Chicoutimi	17493
Laval	9472	Sherbrooke	8516	Saguenay	1788
Jacques-Cartier	11179	Richmond	11213	Rimouski	27418
L'Assomption	15473	Drummond	14281	Gaspé	15557
Terrebonne	19591	Wolfe	8823	Bonaventure	15923
Montcalm	12742	Compton	13665	Labrador	3699
Joliette	23075	Beauce	27253	Iles de la Madeleine(1)	3172

Tableau II.—Comtés de la Province D'Ontario.

Comtés.	Population.	Comtés.	Population.	Comtés.	Population.
Addington	21312	Halton	22606	Peel	16369
Bothwell	20701	Hastings	48364	Perth	46536
Brant	32259	Huron	66165	Peterborough	30473
Bruce	48515	Kent	26836	Prescott	17647
Cardwell	16500	Lambton	31994	Prince-Edward	20336
Carleton	43284	Lanark	33020	Renfrew	29977
Dundas	18777	Leeds	35302	Russell	18344
Durham	37380	Lennox	16396	Simcoe	57389
Elgin	33666	Lincoln	20672	Stormont	11873
Essex	32697	Middlesex	82595	Victoria	30200
Frontenac	28717	Monck	15130	Waterloo	40251
Glengary	20524	Norfolk	30760	Welland	20572
Grenville	23116	Northumberland	39086	Wellington	63289
Grey	59395	Ontario	45890	Wenthworth	57599
Haldimand	20091	Oxford	48237	York	115974

(1) Les Iles de la Madeleine font partie de la division électorale de Gaspé et le Labrador, de celle du Saguenay.

Tableau III.—Comtés du Nouveau-Brunswick, de la Nouvelle-Ecosse et de l'Ile du Prince-Edouard.

Comtés.	Population.
Nouveau Brunswick.	
St. John	52120
Charlotte	25882
King's	24593
Queen's	13847
Sunbury	6824
York	27140
Carleton	19938
Victoria	4407
Madawaska	7234
Restigouche	5575
Gloucester	18810
Northumberland	20216
Kent	19101
Westmoreland	29335
Albert	10672
Nouvelle-Ecosse.	
Hants	21301
King's	21510
Annapolis	18121
Digby	17037
Yarmouth	18550
Shelburne	12417
Queen's	10554
Lunenburg	23834
Halifax	66963
Cumberland	33518
Colchester	23331
Pictou	32114
Antigonish	16512
Guysborough	16555
Inverness	23415
Victoria	11346
Cap Breton	26454
Richmond	14268
Ile du P. Edouard.	
King's	27200
Queen's	50000
Prince's	16821

Population des principales Cités de la Puissance du Canada et des Etats-Unis.

AMERIQUE du NORD

Puissance du Canada.

Montréal, Qc	107,225
Québec, Qc	59,699
Toronto, Ont	56,092
Halifax, N. S.	29,582
St-Jean, (et Portland) N. B.	41,000
Hamilton, Ont	26,716
Ottawa, Ont	21,545
London, Ont	15,826
Portland, N. B	12,500
Kingston, Ont	12,407
Brantford, Ont	8,107
St-Henri, Qc	8,000
St-Catherine, Ont	7,864
Trois-Rivières, Qc	7,570
Pelleville, Ont	7,305
Charlottetown, I.P.E.	7,000
Guelph, Ont	6,878
Lévis, Qc	6,691
Fredericton, N. B.	6,006
Chatham, Ont	5,873
Sorel, Qc	5,636
Port Hope, Ont	5,114
Brockville, Ont	5,102
Hull, Qc	5,000
Winnipeg, Ma	5,000
Ste-Cunegonde, Qc	5,000
Woodstock, Ont	5,000
Moncton, N. B	4,810
Peterborough, Ont	4,611
Ingersoll, Ont	4,022
Victoria, B. C.	4,540
Sherbrooke, Qc	4,500
Cobourg, Ont	4,442
St-Hyacinthe, Qc.	4,000
Galt, Ont	3,827
Owen Sound, Ont.	3,639
Napance, Ont.	3,500
Goderich, Ont	3,454
Barrie, Ont	3,400
Yarmouth, N.S.	3,300
Pictou, N.S.	3,200
Oshawa, Ont	3,185
Dundas, Ont	3,135
Joliette, Qc	3,000
Chatham, N B.	3,000
Liverpool, N.S	3,000
New Glasgow, N.S.	3,000
St-Stephen, N.B.	3,000
Sydney, N.S.	3,000
Windsor, Ont.	3,000

Etats-Unis.

New-York, N. Y.	943,000
Philadelphie, Pa	674,000
Brooklyn, N. Y.	396,000
St-Louis, Mi.	311,000
Chicago, Ill	299,000
Baltimore, Md.	267,000
Boston, Mass.	251,000
Cincinnati, Oo	216,000
Nouvelle-Orléans, La.	191,000
San Francisco, Cal.	149,000
Buffalo, N.Y.	118,000
Washington, D.C.	109,000
Newark, N.J.	105,000
Louisville, Ky	101,000
Cleveland, Oo	93,000
Pittsburg, Pa	86,000
Jersey City, N.J.	83,000
Détroit, Mich	80,000
Albany, N.Y.	77,000
Milwaukee, Wis	71,000
Providence, R.I.	69,000
Rochester, N.Y.	62,000
Alleghany, Pa	53,000
Richmond, Va	51,000
Troy, N.Y.	46,000
Portland, Me.	31,000

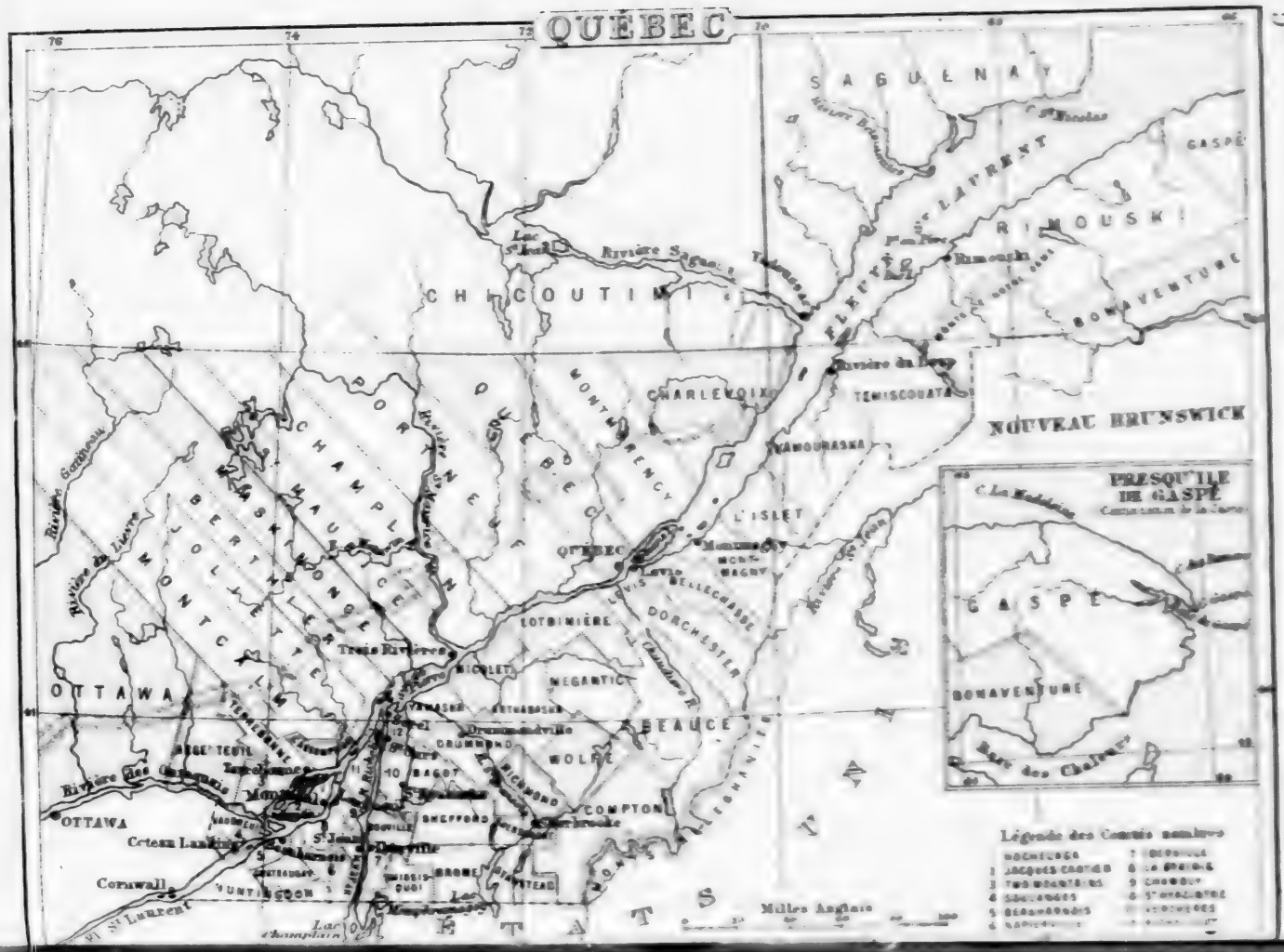

Carte de la Province de Quebec. 49



Rivières et Lacs.—Quel Fleuve traverse la Province de Québec du S.-O. au nord-est? *St-L.*

Montrez les trois principaux Affluents de la rive droite du St-Laurent. *Ru., S.-F., Ce.* [*Sg.*

Nommez les trois principaux de la rive gauche. *Os., S.-M.*

Quel Lac le Richelieu decharge-t-il? *Cn.*

Dans quel Lac se jette le Richelieu? *St-P.*

Quel Lac se décharge dans le St-François? *Mg.*

Dans quel Comté le St-François prend-il sa source? *Be.*

De quel Lac reçoit-il ses eaux? *Mégantic.*

Dans quelle rivière se décharge-t-il? *St-L.*

Dans quelles Montagnes prend-il sa source? *Ag.*

Dans quelle direction le St-Maurice coule-t-il?

De quel Lac le Saguenay reçoit-il les eaux? *St-J.*

Montrez la rivière du Lièvre.—Matawin.—Betsiamites.

Iles et Presqu'ile.—Quelle grande Ile trouve-t-on au confluent de l'Outaouais et du St-Laurent? *Ml.*

Quelle Ile se trouve au nord de celle de Montréal? *Js.*

Quelle grande Ile est située près de Québec? *Orléans.*

Quelle Presqu'île est située dans l'est de la Province? *Gé.*

Montagnes et Caps.—Quelle chaine de Montagnes forme une partie des limites entre la Province de Quebec et les Etats-Unis? *Ag.*

Quelle autre chaine se trouve au nord du fleuve St-Laurent? *Ls.*

Nommez les trois Caps situés dans la Gaspésie. *Gé., Rs., Me.*

Villes.—Dans quelle Ile est la ville de Montréal? *Ml.*

Quelle est la Capitale de la Province de Québec? *Qc.*

Sur quelle Rivière est-elle située? *St-L.*

Quelle Ville est située à l'embouchure du St-Maurice? *T.-R.*

Quel Village est situé à l'embouchure du Saguenay? *Ic.*

Quelle Ville se trouve à l'embouchure du Richelieu? *St.*

Sur quelle Rivière est située la ville de St-Hyacinthe? *Ya.*

Quelle Ville est située vis-à-vis de Quebec? *Ls.*

Montrez Rimouski.—Rivière du Loup.—Montmagny.—Sherbrooke.—Lachine.—Beauharnois.

Comtés.—Quels sont les Comtés qui forment la Gaspésie?

Quels sont les Comtés baignés par la Chaudière? *Ls., Dr., Be., Cn.*

Quels sont les Comtés qui se trouvent entre la Chaudière et la Gaspésie? *Dr., Be., Mg., Lt., Ka., Ta.*

Quels sont les Comtés arrosés par le St-François? *Ya., D.-L., Rd., Se., We.*

Quels sont les autres Comtés situés entre la Chaudière et le St-François? *Le., Me., Nt., Aa.*

Quels sont les Comtés baignés par le Richelieu? *Ru., St-H., Re., Ic., Mi., Vs., Cy., St-J.*

Nommez les Comtés au-dessus du St-François qui n'ont pas encore été nommés. *Bt., Sd., Be., Bs., Cy., Hn.*

Quels sont les Comtés arrosés par le Saguenay? *Sg., Ci.*

Nommez les Comtés situés entre le Saguenay et le St-Maurice. *Cr., Mg., Qr., Cf., Cn.*

Nommez les Comtés baignés par le St-Laurent, depuis le St-Maurice jusqu'à l'île de Montréal. *S.-M., Me., Re., L.-A.*

Nommez les Comtés à l'ouest du comté de *Joliette*. *Kn., Te., D.-M., Al., Oz.*

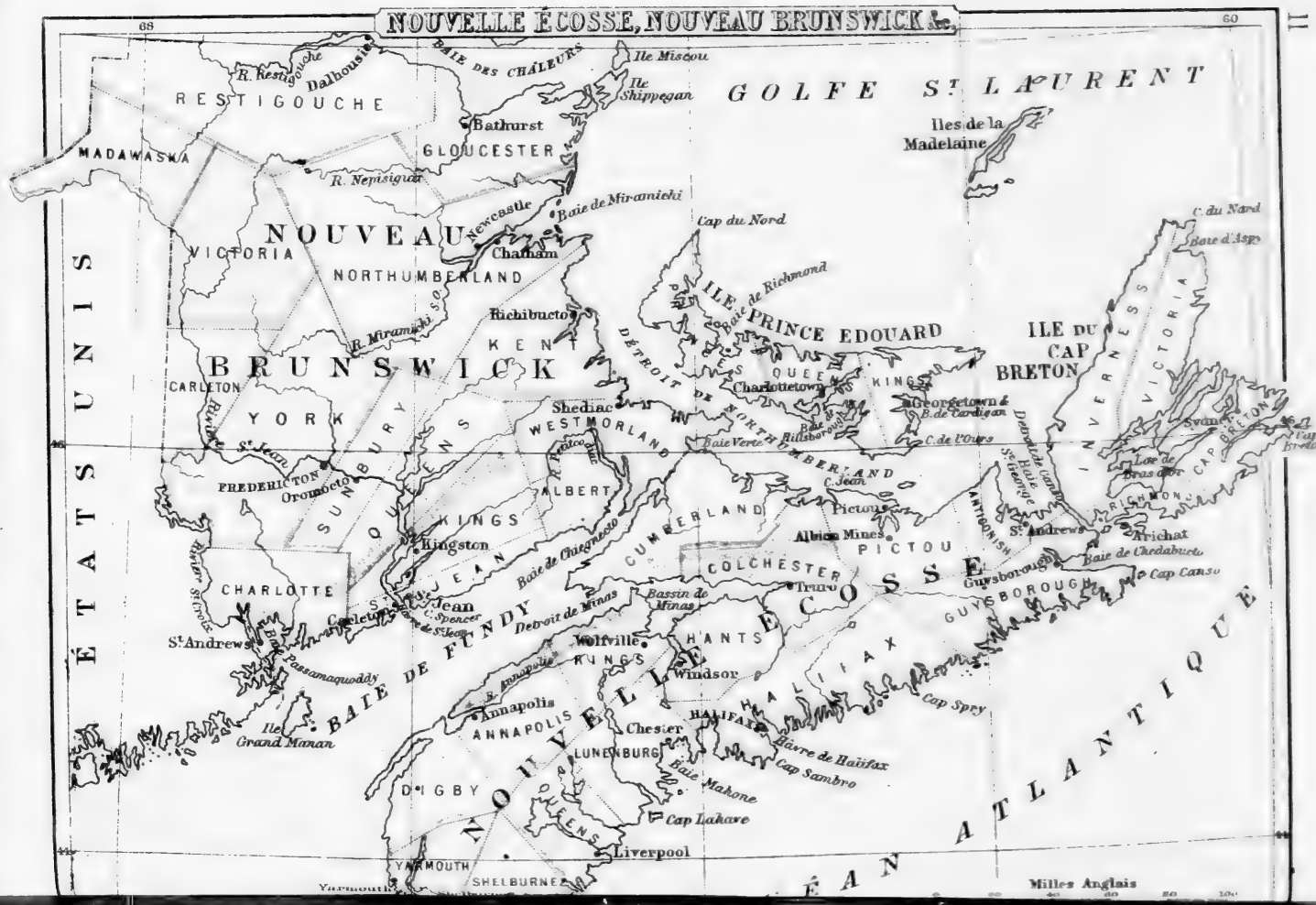

Nouveau-Brunswick, Nouvelle-Ecosse et Ile du Prince Edouard. 51

Nouveau-Brunswick.—Par quelle Rivière et quelle

Nouveau-Brunswick.—Par quelle Rivière et quelle Baie le N.-Brunswick est-il borné au nord ? *Re., Cr.*

Par quel Golfe et quel Détroit est-il borné à l'est ? S.-L., *Nd.*

Par quelle Baie est-il borné au sud ? *Fy.*

Quel Pays le borne-t-il à l'ouest ? *E.-U.*

Quelles Rivières débouchent dans la baie des Chaleurs ? *Re., Nt.*

Quelle Rivière se jette dans la baie Miramichi ? *Mi.*

Quelle est la plus grande Rivière du N.-Brunswick ? *S.-J.*

Quel est le cours général du fleuve S.-Jean ?

Dans quelles eaux se décharge-t-il ? *B. Fy.*

Quelle grande Ville est située à l'embouchure du fleuve Saint-Jean ? *S.-J.*

Quelle est la Capitale du Nouveau-Brunswick ? *Fn.*

Sur quelle Rivière est-elle située ? *S.-J.*

Quel Comté est borné par la rivière Restigouche ? *Re.*

Quels Comtés touchent au comté Restigouche ? *Ma., Va., Nt., Gr.*

Montrez la baie Passamaquoddy.

Quel Comté est borné par cette baie ? *Ce.*

Quels Comtés sont limitrophes au comté Charlotte ? *Yk., Sy., Qs., Ks., S.-J.*

Quels sont les deux Comtés qui sont situés sur le détroit Northumberland ? *Kt., Wd.*

Nouvelle-Ecosse.—Quel Isthme joint la Nouvelle-Ecosse au Nouveau-Brunswick ? *Co.*

Quelle Baie sépare ces deux Provinces ? *Fy.*

Par quelles eaux la Nouvelle-Ecosse est-elle bornée au sud et à l'est ? *At.*

Montrez la baie Chiegnectou.

Montrez le détroit de Minas.—Le bassin de Minas.

Quelle grande Ile trouve-t-on au N.-E. de la N.-Ecosse ? *C.B.*

Quelle Ile est située au sud du Cap-Breton ? *Me.*

Nommez les Comtés que forme l'île du Cap-Breton. *Is., Va., C.-B., Rd.*

Quel grand Lac se trouve vers le centre de cette île ? *B.-d'O.*

Nommez les trois Comtés situés dans l'est de la Presqu'île. *Pu., Ah., Gh.*

—Les trois de l'ouest. *Dy., Yh., Se.*

Quels sont les deux Comtés qu'arrose la rivière Annapolis ? *Ks., As.*

Quels sont les deux Comtés situés au sud-est du comté d'Annapolis ? *Qs., Lg.*

Quelle est la Capitale de la Nouvelle-Ecosse ? *Hr.*

Ile du Prince Edouard.—Dans quel Golfe est située l'île du Prince Edouard ? *St.-L.*

Quel Détroit sépare cette île du Nouveau-Brunswick et de la Nouvelle-Ecosse ? *Nd.*

Quel Cap est situé au nord-est ? *Nd.*

Quels sont les trois Comtés formés par cette Province ? *Ps., Qn., Ks.*

Quelle est la Capitale de cette île ? *Gn.*

Sur quelle Baie est-elle située ? *Hg.*

Quelles sont les trois principales Baies ? *Rd., Cn., Hg.*

Par quel Détroit le Cap-Breton est-il séparé de la Nouvelle-Ecosse ? *Co.*

Quelles Baies sont situées aux extrémités de ce détroit ? *S.-G., Co.*

Carte des Etats-Unis.

Bornes.—Quels sont les bornes des Etats-Unis au nord ? *P.C.*
Quel Océan est situé à l'est ? *At.*
Quelle Contrée et quel Golfe les bornent au sud ? *Me.*
Quel Océan se trouve à l'ouest ? *Pc.*
Quels sont les Lacs qui séparent le Canada des Etats-Unis ? *Sr., Hn., Ee., Oo.*
Quel Lac est situé en entier dans les Etats-Unis ? *Mn.*

Rivières.—Montrez le fleuve Mississippi
Dans quelles eaux se décharge-t-il ? *G.M.*
Quels sont les trois principaux Affluents situés sur la rive droite ? *Mi., As., R.R.*
Les deux principaux de la rive gauche ? *Oo., Te.*
Quelle Rivière sépare le Mexique des Etats-Unis ? *Ge.*
Quel Fleuve arrose l'ouest des Etats-Unis ? *Co.*
Où débouche-t-il ? *G.Ce.*
Quelle grande Rivière arrose le nord-ouest ? *Ce.*
Dans quelles eaux se jette-t-elle ? *Pc.*

Montagnes.—Montrez les Montagnes Rocheuses.
Quels Territoires traversent-elles ? *Ma., Io., Wy., Uh., Co., N.-M.*
Quelle chaîne de Montagnes se trouve dans l'est des Etats-Unis ? *Ay.*
Dans quel Océan les rivières situées à l'ouest des Montagnes Rocheuses se dirigent-elles ? *Pc.*
Dans quelles eaux se dirigent les rivières situées entre les Alléghanies et les Montagnes Rocheuses ? *G.Me.*
—Les Rivières à l'est des Alléghanies ? *At.*

Etats.—De combien d'Etats se composent les Etats-Unis ? 37.
Quel est le plus grand ? *Ts.*
Quel est le plus au sud ? *Fe.*
Quel est le plus à l'ouest ? *Ce.*
Montrez l'état de New-York ?
Quels sont les Etats au nord et à l'est de celui de New-York ? *R.I., Ct., Mt., Vt., N.H., Me.*
Quels sont les Etats, au-dessous de New-York, bornés par l'Atlantique ? *N.-J., De., Md., Ve., C.N., C.S., Ge. Fe.*
Quels sont les Etats baignés par le golfe du Mexique ? *Fe., Aa., Mi., Le., Ts.*
Quels sont les Etats baignés par la rive gauche du Mississippi ? *Wn., Is., Ky., Te., Mi.*
—Par la rive droite ? *Ma., Ia., Mi., As., Le.*
Quels sont les Etats ou Territoires baignés par le Missouri ? *Ma., Da., Na., Ia., Ks., Mi.*
—Ceux qui sont baignés par le Pacifique ? *Wn., On., Ca.*

Villes.—Quelle est la Capitale des Etats-Unis ? *Wn.*
Montrez New-York.— Boston.—Ottawa.—St-Louis.— La Nouvelle-Orléans. — Philadelphie. — Baltimore. — San Francisco.

Caps.—Quel Cap trouve-t-on à l'est de la Caroline ? *Hs.*
—Au sud de la Floride ? *Se.*
—A l'ouest de la Californie ? *Mo.*
Montrez le Territoire Utah.
Quel Lac est situé dans ce Territoire ? *L.Sé.*

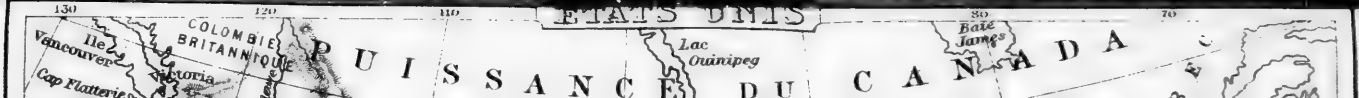

États-Unis ? *Af.*

Dans quel Océan les rivières situées à l'ouest des Montagnes Rocheuses se dirigent-elles ? *Pc.*

Dans quelles eaux se dirigent les rivières situées entre les Alléghanies et les Montagnes Rocheuses ? *G.Me.*

—Les Rivières à l'est des Alléghanies ? *At.*

Caps.—Quel Cap trouve-t-on à l'est de la Caroline ? *Hs.*

—Au sud de la Floride ? *Se.*

—A l'ouest de la Californie ? *Mo.*

Montrez le Territoire Utah.

Quel Lac est situé dans ce Territoire ? *L.Sé.*

Bornes et Mers.—Quelle Mer borne l'Asie au nord ? *Ge.*
Quelles sont les Mers qui la bornent à l'est ? *Bg., Ok., Jn., Je.*
Par quelles Mers est-elle bornée au sud ? *Ce., Ae.*
—Par quel Golfe ? *Be.*
Quelles sont les Mers qui la bornent à l'ouest ? *Re., Me., Ce.*
—Quels Monts ? *Os.*

Contrées.—Quelle Contrée occupe le nord de l'Asie ? *Se.*
Quel Empire trouve-t-on au sud de la Sibérie ? *Cs.*
Quelle est la Capitale de la Chine ? *Pn.*
Montrez le Tibet et nommez sa Capitale. *La.*
Quelles sont les trois Contrées situées au sud de la Chine ? *Am., Sm., Bn.*
Quelles en sont les principales Villes ? *Hé., Bk., My.*
Quelle Contrée trouve-t-on au sud-ouest de la Chine ? *Ie.* ou *Hindoustan.*
Quelle en est la principale Ville ? *Ca.*
Montrez l'Arabie et nommez en la principale Ville. *Me.*
Par quelles Contrées est-elle bornée ? *Te., Pe.*
Quelle est la Capitale de la Perse ? *Tn.*
Quelles sont les trois Contrées situées à l'est de la Perse ? *Tn., An., Bn.*

Iles.—Quel groupe d'Iles trouve-t-on à l'est de la Chine ? *Jn.*
Quel groupe est situé au nord du Japon ? *Ks.*
Quelle Ile se trouve au sud de l'Hindoustan ? *Cn.*

Presqu'iles.—Quelles Presqu'iles trouve-on à l'ouest de l'Asie ? *Te., Ae.*
Quelle Presqu'île est située à l'est de la Sibérie ? *Ka.*
—A l'est de la Chine ? *Ce.*—Au sud de Siam ? *Ma.*
Quel Isthme unit l'Asie à l'Afrique ? *Sz.*

Montagnes et Caps.—Quelle chaîne de Montagnes y a-t-il entre la Chine et la Sibérie ? *Aï.*
Quelle chaîne sépare l'Hindoustan de la Chine ? *Ln.*
Quelle chaîne sépare la Sibérie de l'Europe ? *Os.*
Quel Cap est situé au nord de la Sibérie ? *N.-E.*
Quel Cap se trouve au sud de l'Inde ? *Cn.*

Golfes et Détroits.—Quel Golfe trouve-t-on au sud-est de l'Inde ? *Be.*
Quel Golfe se trouve entre l'Arabie et la Perse ? *Pe.*
Quel Détroit unit la mer Rouge et la mer Arabique ? *B.-M.*
Quel Détroit sépare le Japon de la Corée ? *Ce.*
Quel Détroit se trouve entre la presqu'île de Malacca et l'île de Sumatra ? *Ma.*

Lac.—Quel Lac est situé dans le sud de la Sibérie ? *Bl.*

Rivières.—Nommez les trois Fleuves qui arrosent la Sibérie. *Oi., Yi., La.*
Dans quelle direction coulent-ils généralement ?
Dans quelles Montagnes prennent-ils leurs sources ? *Aï.*
Quelles Contrées sont arrosées par le Mekon ou Cambodje ? *Tl., Sm., Am.*
Par quel Fleuve le Birman est-il traversé ? *Iy.*
Quels sont les deux Fleuves qui prennent leurs sources dans les versants des monts Himalaya, l'un au nord et l'autre au sud ? *Be., Ge.*
Quel Fleuve arrose le nord-ouest de l'Hindoustan ? *Is.*
Par quel Fleuve la Turquie d'Asie est-elle arrosée ? *Es.*
Quelle est la Rivière qui prend sa source dans le lac Baïkal ? *Aa.*

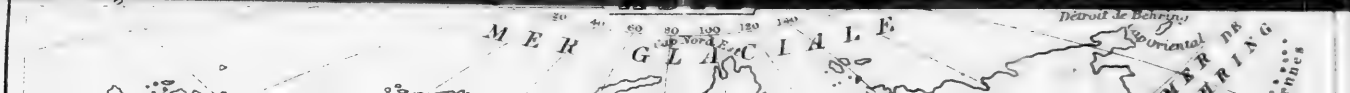

Quelle Ile se trouve au sud de l'Hindoustan? *Cu.*

Presqu'iles.—Quelles Presqu'iles trouve-on à l'ouest de l'Asie? *Te., Ae.*

Quelle Presqu'ile est située à l'est de la Sibérie? *Ka.*

—A l'est de la Chine? *Ce.*—Au sud de Siam? *Ma.*

dans les versants des monts Himalaya, l'un au nord et l'autre au sud? *Be., Ge.*

Quel Fleuve arrose le nord-ouest de l'Hindoustan? *Is.*

Par quel Fleuve la Turquie d'Asie est-elle arrosée? *Es.*

Quelle est la Rivière qui prend sa source dans le lac Baïkal? *Aa.*

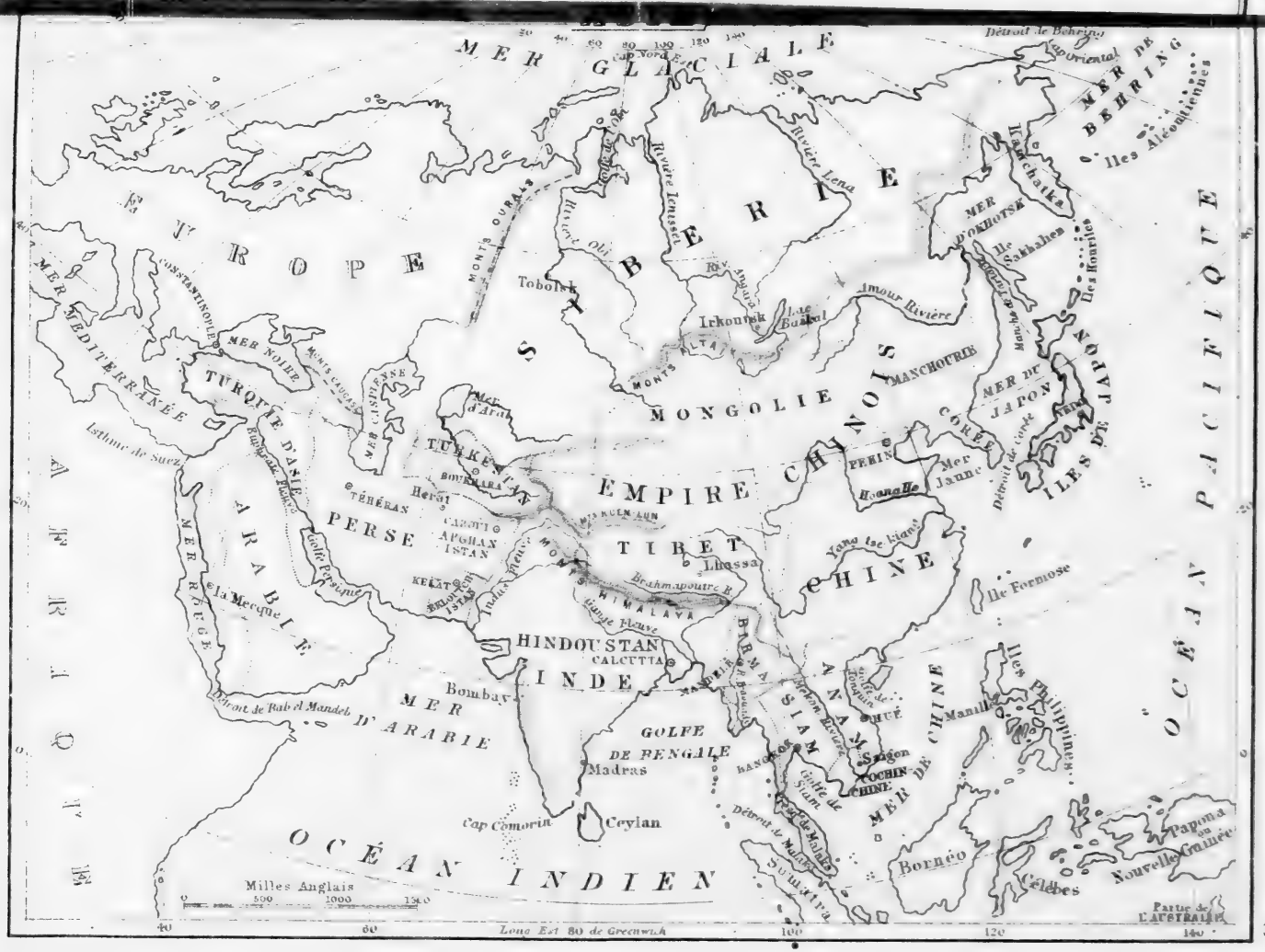

Mexique.

Mexico 205,000
Puebla 75,000
Guadalaxara 70,000
Guanaxuato 63,000
Queretaro 40,000

Amérique Centrale.

Nouveau Guatémala . 40,000
Leon 35,000
San José 30,000
San Salvador 18,000
Managua 10,000

Antilles.

La Havane 206,000
Santiago de Cuba 96,000
Puerto Principe 45,000
Matanzas 45,000
Kingston 36,000
Port-au-Prince 21,000

AMER. MERIDIONALE.

Brésil.

Rio Janeiro 420,000
Bahia 180,000
Pernambouc 60,000
Maranham 30,000

Vénézuéla.

Caraccas 47,000
Valencia 25,000
Maracaybo 25,000
Barcelona 15,000

Colombie.

Bogota 45,000
Popayan 20,000
Panama 20,000

Equateur.

Quito 76,000
Guayaquil 25,000
Cuença 20,000

Perou.

Lima 121,000
Cuzco 46,000
Arequipa 35,000

Bolivie.

La Paz 76,000
Cochabamba 41,000
Chuquisaca 24,000

Chili.

Santiago 115,000
Valparaiso 70,000

Confédération Argentine.

Buenos Ayres 200,000
Cordova 29,000
Rosario 20,000

Paraguay.

Concepcion 16,000
Asuncion 15,000

Uruguay.

Montevideo 126,000

EUROPE.

Norwége et Suède.

Stockholm 138,000
Christiania 70,000
Gottenburg 57,000
Bergen 30,000
Malmo 26,000

Russie.

St Petersbourg 667,000
Moscou 368,000
Varsovie 255,000
Odessa 119,000
Riga 102,000
Kichineff 95,000
Saratov 86,000
Wilna 79,000

Suisse.

Genève 49,000
Bâle 38,000
Berne 29,000
Lausanne 21,000

France.

Paris 1,225,000
Lyon 342,800
Marseille 318,000
Bordeaux 215,000
Lille 162,000
Toulouse 131,000
St Etienne 120,000
Nantes 122,000
Rouen 106,900

Espagne.

Madrid 317,000
Barcelone 250,000
Séville 152,000
Valence 146,000
Malaga 113,000
Murcia 110,000
Grenade 101,000
Saragosse 83,000
Cadix 72,000

Portugal.

Lisbone 225,000
Oporto 89,000
Braga 20,000
Coïmbre 18,000

Hollande.

Amsterdam 282,000
Rotterdam 123,000
La Haye 93,000
Utrecht 61,000

Belgique.

Bruxelles 314,000
Anvers 127,000
Gand 121,000
Liége 106,000
Bruges 48,000
Malines 36,000
Verviers 34,000

Angleterre.

Londres 3,883,000
Liverpool 500,000
Manchester 356,000
Birmingham 344,000
Leeds 259,000
Sheffield 240,000
Bristol 183,000
Bradford 146,000
Stoke-upon-Trent 131,000
New Castle 128,000
Salford 125,000
Hull 122,000
Portsmouth 113,000

Ecosse.

Glasgow 477,000
Edimbourg 197,000
Dundee 119,000
Aberdeen 88,000
Greenock 57,000

Irlande.

Dublin 246,000
Belfast 174,000

(1) Pour les villes de la Puissance du Canada et des Etats-Unis, voyez page 47.

Cork 79,000
Limerick 40,000
Waterford 23,000
Londonderry 20,000

Danemark.

Copenhague 180,000
Odensée 14,000

Autriche.

Vienne 825,000
Pesth 202,000
Prague 170,000
Trieste 130,000
Lemberg 87,000
Grätz 80,000
Brunn 73,000
Szegedin 69,000
Theresienstadt 56,000
Bude 55,000
Cracovie 50,000

Empire d'Allemagne.

Berlin 825,000
Breslau 208,000
Dresde 177,000
Munich 171,000
Cologne 129,000
Kœnigsberg 112,000
Leipsick 106,000
Hanovre 104,000
Francfort-sur-le-Mein 91,000
Stuttgard 91,000
Dantzig 89,000
Magdebourg 84,000

Villes Libres.

Hambourg 240,000
Brême 83,000
Lubeck 46,000

Italie.

Naples 419,000
Rome 240,000
Milan 196,000
Turin 181,000
Palerme 168,000
Gênes 128,000
Venise 114,000
Florence 114,000
Bologne 90,000
Livourne 84,000
Catane 65,000
Messine 62,000
Verone 56,000
Padoue 52,000
Parme 47,000
Brescia 40,000

Turquie d'Europe.

Constantinople 1,075,000
Bucharest 142,000
Andrinople 100,000
Salonique 100,000
Jassy 90,000
Bosna-Seraï 60,000

Grèce.

Athènes 48,000
Patras 26,000
Corfou 24,000
Syra 21,000
Zante 20,000

Turquie d'Asie.

Smyrne 150,000
Damas 120,000
Alep 100,000
Beyrouth 100,000
Brousse 100,000
Erzeroum 100,000
Bagdad 40,000
Jérusalem 20,000

Arabie.

Mecque 60,000
Mascate 50,000
Aden 50,000
Médine 15,000

Perse.

Tébriz 140,000
Téhéran 85,000
Mesched 70,000

Afghanistan.

Candahar 100,000
Hérat 60,000
Caboul 60,000

Belouchistan.

Kélat 15,000

Turkestan.

Boukhara 100,000
Khokand 60,000

Hindoustan.

Bombay 817,000
Calcutta 616,000
Madras 428,000
Lucknow 300,000
Patna 284,000
Arracan 250,000

Indo-Chine.

Mandelay 500,000
Saïgon 100,000
Bangkok 100,000
Huë 100,000
Singapour 70,000

Empire Chinois.

Pekin 1,800,000
Canton 1,000,000
Changchufu 1,000,000
Tientsin 700,000
Nanchang 700,000
Sou-Chow 700,000
Hang-Chow 500,000
Nankin 500,000
Foo-Chow 500,000

Japon.

Yeddo 2,000,000
Miaco 500,000
Osaca 150,000
Nangasaki 75,000

Siberie.

Tiflis 71,000
Tashkend 64,000
Irkoutsk 28,000

AFRIQUE.

Caire 282,000
Alexandrie 181,000
Tunis 130,000
Fez 100,000
Abeokuta 100,000
Coumassie 100,000
Mequinez 60,000
Damiette 57,000
Alger 53,000
Moroc 50,000
El-Obeid 30,000

OCEANIE.

Melbourne, Australie 194,000
Manille, Philippines 140,000
Sydney, Australie 135,000
Djokjokarta, Java 90,000
Ballarat, Australie 74,000
Batavia, Java 70,000
Surabaya, Java 60,000
Samarang, Java 50,000

Carte de l'Europe.

59

Bornes. —Par quoi l'Europe est-elle bornée au nord ? . Quelle Presqu'île se trouve au S.-O. de la France? *Fe. et Pl.*

Bornes.—Par quoi l'Europe est-elle bornée au nord ?
Par quoi est-elle bornée à l'est ?
Quelles sont ses bornes au sud ?
Comment est-elle bornée à l'ouest ?

Divisions. — Quelles Contrées occupent le nord de l'Europe ? *Ne., Se., Re.*
Quelles sont leurs Capitales ? *Ca., Sm., S.-P.*
Quels sont les trois Etats situés au sud-ouest de la Russie ? *Pe., Ae., Te.*
Quelles en sont les Capitales ? *Bn., Ve., Ce.*
Quelle Contrée trouve-t-on au sud de la Turquie ? *Ge.*
Quelle est la Capitale de la Grèce ? *As.*
Montrez l'Italie et dites quelle est sa Capitale. *Re.*
Montrez la France et nommez sa Capitale. *Ps.*
Quelles sont les trois petites Contrées qui sont situées à l'est et au nord-est de la France ? *Se., He., Be.*
Montrez l'Espagne et nommez sa Capitale ? *Md.*
Quel Etat borne l'Espagne à l'ouest ? *Pl.*

Iles.—Quelles Iles sont situées à l'ouest de l'Europe ? *I. B.*
Quelle est la Capitale de l'Angleterre ? *Ls.*
Quelle est la Capitale de l'Irlande ? *Dn.*
Quelles sont les principales Iles de la Méditerranée ? *Ce., Se., Se.*
Quel groupe d'Iles est situé à l'est de l'Espagne ? *Bs.*

Presqu'iles.—Quelles sont les deux Contrées qui forment une presqu'île au nord de l'Europe ? *Ne., Se.*
Comment s'appelle la Presqu'île située au sud de la Turquie ? *Ge.*
Quelle Presqu'île se trouve au S.-O. de la France ? *Ee.* et *Pl.*
Quelle Presqu'île trouve-t-on dans la Méditerranée ? *Ie.*

Montagnes.—Quelle chaine de Montagnes se trouve entre la Norwège et la Suède ? *Dd.*
Quelle chaine trouve-t-on au sud de la Russie ? *Ce.*
—Au nord de l'Italie ? *As.*
—Entre la France et l'Espagne ? *Ps.*

Caps.—Quel Cap se trouve au nord de l'Europe ? *Nd.*
Quel Cap est situé au sud de la Grèce ? *Mn.*
Quel Cap se trouve au nord-ouest de l'Espagne ? *Fe.*

Mers et Golfes.—Quelle Mer est située au sud de l'Europe ? *Me.*
Quelle Mer est située à l'est de l'Italie ? *Ae.*
Quelle Mer se trouve entre l'Angleterre et le Danemark ? *Nd.*—Entre l'Angleterre et l'Irlande ? *Ie.*
—Entre la Russie et la Suède ? *Be.*
Quel Golfe est situé au sud de l'Italie ? *Te.*
Quel Golfe trouve-t-on au sud de la France ? *Ln.*
Quel Golfe se trouve au nord de l'Espagne ? *Ge.*
Nommez les Golfes formés par la mer Baltique. *Be., Fe., Ra.*

Rivières.—Nommez les deux Fleuves qui se déchargent dans la mer Caspienne. *Ol., Va.*
—Les trois qui se jettent dans la mer Noire. *Dn., Dr., De.*
Quelles sont les trois principales Rivières de la France ? *Re., Le., Se.*
Sur quelle rivière Lisbonne est-elle située ? *Te.*—Paris ? *Se.*
—Vienne ? *De.*
Quel Fleuve trouve-t-on dans le nord de l'Italie ? *Pô.*

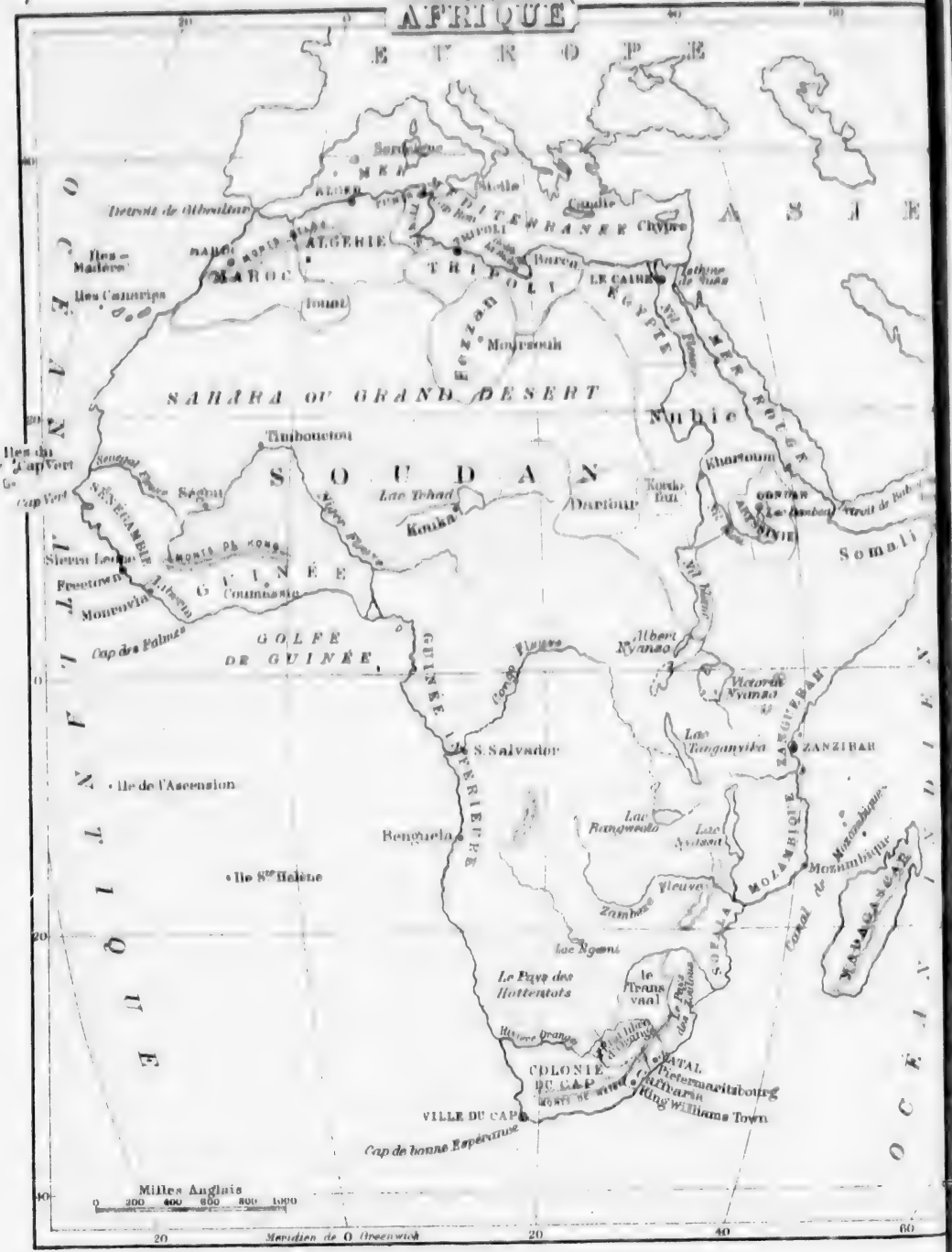
AFRIQUE
EUROPE
ASIE
OCÉAN ATLANTIQUE
OCÉAN INDIEN
MER MÉDITERRANÉE
Sardaigne
Sicile
Candie
Chypre
Détroit de Gibraltar
ALGÉRIE
MAROC
Iles Madère
Iles Canaries
Iouat
TRIPOLI
Barca
LE CAIRE
Isthme de Suez
ÉGYPTE
Nil Fleuve
MER ROUGE
Fezzan
Mourzouk
SAHARA OU GRAND DESERT
Nubie
Khartoum
Timbouctou
SOUDAN
Iles du Cap Vert
Cap Vert
Sénégal Fleuve
Ségou
Lac Tchad
Kouka
Dartour
Kordofan
GONDAR
Lac Dambea
Détroit de Babel
Somali
SÉNÉGAMBIE
Sierra Leone
Freetown
Monrovia
Liberia
MONTS DE KONG
GUINÉE
Coumassie
Cap des Palmes
GOLFE DE GUINÉE
GUINÉE INFÉRIEURE
Congo Fleuve
Albert Nyanza
Victoria Nyanza
Lac Tanganyika
ZANGUEBAR
ZANZIBAR
S. Salvador
Ile de l'Ascension
Benguela
Lac Bangweolo
Lac Nyassa
MOZAMBIQUE
Mozambique
Canal de Mozambique
MADAGASCAR
Ile Ste Hélène
Zambèze Fleuve
SOFALA
Lac Ngami
Le Pays des Hottentots
le Transvaal
Le Pays des Zoulous
Rivière Orange
COLONIE DU CAP
NATAL
Pietermaritzbourg
Caffraria
King Williams Town
VILLE DU CAP
Cap de bonne Espérance
Milles Anglais
0 200 400 600 800 1000
Méridien de O Greenwich
20
40
60

Carte de l'Afrique.

Bornes.—Quelle Mer borne l'Afrique au nord? *Me.*

Par quelles eaux est-elle bornée à l'est? *M.R., O.I.*

Comment est-elle bornée au sud et à l'ouest? *O.At.*

Contrées.—Quelles Contrées occupent le nord de l'Afrique? *Me., Ae., Ts., Ti.*

Quelle est la Capitale du Maroc? *Me.*

Quelle est la Capitale de l'Algérie? *Ar.* —De Tunis? *Ts.*—De Tripoli? *Ti.*

Montrez Fezzan.—Montrez Barca.

Montrez le Sahara ou Grand-Désert.

Par quelles Contrées le Sahara est-il borné à l'est? *Ee., Ne.*

Quelle est la Capitale de l'Egypte? *Ce.*

Par quelle Contrée la Nubie est-elle bornée au sud-est? *Ae.*

Quel Territoire est situé au sud de l'Abyssinie? *Si.*

Montrez le Zanguébar, et nommez sa Capitale? *Zr.*

Nommez les Etats de l'Afrique Méridionale? *Zs., Tl., Oe., Nl., C.-C.*

Montrez le Mozambique.—Sofala.

Quelle est la Capitale de la Colonie du Cap? *Cp.* (*Cap-Town*).

Montrez la Guinée Supérieure.

Quelle est la Contrée la plus à l'ouest? *Se.*

Iles.—Quelle grande Ile trouve-t-on au sud-est de l'Afrique? *Mr.*

Par quel Canal est-elle séparée de la terre ferme? *Me.*

Quel groupe d'Iles est situé à l'ouest de la Sénégambie? *C.-V.*

Quels groupes trouve-t-on au nord-ouest du Sahara? *Cs., Me.*

Quelles sont les deux Iles situées au sud-ouest de l'Afrique? *An., S.-H.*

Montagnes et Caps.—Quels Monts se trouvent au nord-ouest de l'Afrique? *As.*

Quelle chaîne de Montagnes trouve-t-on au sud? *Ne.*—Au nord de la Guinée Supérieure? *Kg.*

Quel Cap est situé au nord de l'Afrique? *Bn.*—A l'est? *Gl*—Au sud? *B.-E.*

Quel Cap trouve-t-on à l'ouest? *Vl.*

Mers et Golfes.—Quelle Mer sépare l'Afrique de l'Europe? *Me.*

Quelle Mer sépare l'Afrique de l'Asie? *Re.*

Quel Golfe est situé au nord de Tripoli? *Se.* —Au sud de la Guinée Supérieure? *Ge.*

Détroits.—Quel Détroit y a-t-il entre l'Afrique et l'Europe? *Gr.*

Quel Détroit unit la mer Rouge à l'Océan Indien? *B.-M.*

Lacs.—Quel Lac se trouve au centre du Soudan? *Td.*

Quels Lacs trouve-t-on dans le sud-est de l'Afrique? *At., Va., Na.*

Rivières.—Quel est le Fleuve qui, coulant du sud au nord, se jette dans la Méditerranée? *Nl.*

Quels sont ses deux principaux Tributaires? *N.-B.* et *N.-B.*

Quelle Rivière sépare le Mozambique de Sofala? *Zi.*

Quel est le Fleuve qui se jette dans le golfe de Guinée après avoir arrosé le Soudan et la Guinée *Nr.*

Quel Fleuve traverse la Guinée Inférieure? *Co.*

Carte de l'Oceanie.

Malaisie.—Quels sont les grandes Divisions de l'Océanie ? *Me., Pe., Ae.*
Quelle Ile est située au sud de la presqu'ile de Malacca ? *Sa.*
Quel Détroit sépare cette ile de la terre ferme ? *Ma.*
Quelle grande Ile est située à l'est de Sumatra ? *Bo.*
Quelle Ile se trouve à l'est de Bornéo ? *Cs.*
Quel groupe d'Iles trouve-t-on à l'est de Célèbes ? *Ms.*
Quels groupes sont situés au sud de Bornéo ? *Ja., Sa.*
Quel autre groupe est situé à l'est de Sumbava ? *Tr.*
Quel groupe trouve-t-on dans le nord de la Malaisie ? *Ps.*
Quelle Ville remarquable est située dans les iles Philippines ? *Me.*

Australasie.—Montrez l'Australie.
Dans quelle partie de l'Océanie est-elle située ? *Ae.*
Quelle grande Ile se trouve au nord de l'Australie ? *Pa.*
Par quel Détroit en est-elle séparée ? *Ts.*
Quelles sont les six principales divisions de l'Australie ? *A. N., Qd., N.-G., Va., A. S., A.O.*
Quelle est la Capitale de l'Australie ? *Sy.*
Quelle en est la principale Ville ? *Me.*
Quels sont les deux groupes d'Iles situés au nord-est de Papoua ? *N.B., N.I.*—A l'est ? *Sn.*
Quels sont les deux groupes que l'on trouve à l'est de l'Australie ? *N.-H., N.-C.*
Quelle grande Ile est située au sud ? *Te.*
Par quel Détroit est-elle séparée de l'Australie ? *Bs.*
Quelles Iles trouve-t-on au sud-est de l'Australie ? *N.-Z.*
Quel Golfe est situé au nord de l'Australie ? *Ce.*
—Au sud ? *Sr*
Quelle Rivière trouve-t-on dans le sud de l'Australie ? *My.*
Quel Lac se trouve dans la même région ? *Ts.*
Quelles sont les deux Villes que l'on trouve au sud-ouest ? *Ph., Ay.*
Montrez l'ile de Norfolk.

Polynésie.—Montrez la Polynésie.
Quel Archipel trouve-t-on dans le nord-ouest ? *Me.*
Quel autre Archipel est situé à l'est de Magelhaes ? *An.*
Quel autre groupe trouve-t-on au nord du 20me degré de latitude nord ? *Sh.*
Quels sont les deux groupes que l'on trouve à l'ouest, entre l'équateur et le 10me degré de lat. nord ? *Ms., Cs.*
Quels sont les deux groupes situés à l'est des Carolines ? *Ml., Gl.*
Quelles sont les Iles situées au S. des iles Sandwich ? *P.C.*
Montrez les iles des Navigateurs.
Quel groupe trouve-t-on au nord-ouest des iles des Navigateurs ? *Ee.*—Au sud-est ? *Sé., Ti.*—Au sud ? *As.*—Au sud-ouest ? *Fi.*
Montrez les iles de Cook.
Quelles Iles sont situées au S.-E. des Iles de Cook ? *Al., Pn.*
Montrez les iles Marquises.
Quels sont les deux groupes situés au sud des Marquises ? *Tu., Pn.*
Quel groupe de la Polynésie est le plus au sud ? *Ec.*



Quelle grande Ile est située au sud ? *Te.*
Par quel Détroit est-elle séparée de l'Australie ? *Bs.*
Quelles Iles trouve-t-on au sud-est de l'Australie ? *N.-Z.*

Quels sont les deux groupes situés au sud des Marquises ? *Tu., Pn.*
Quel groupe de la Polynésie est le plus au sud ? *Kc.*

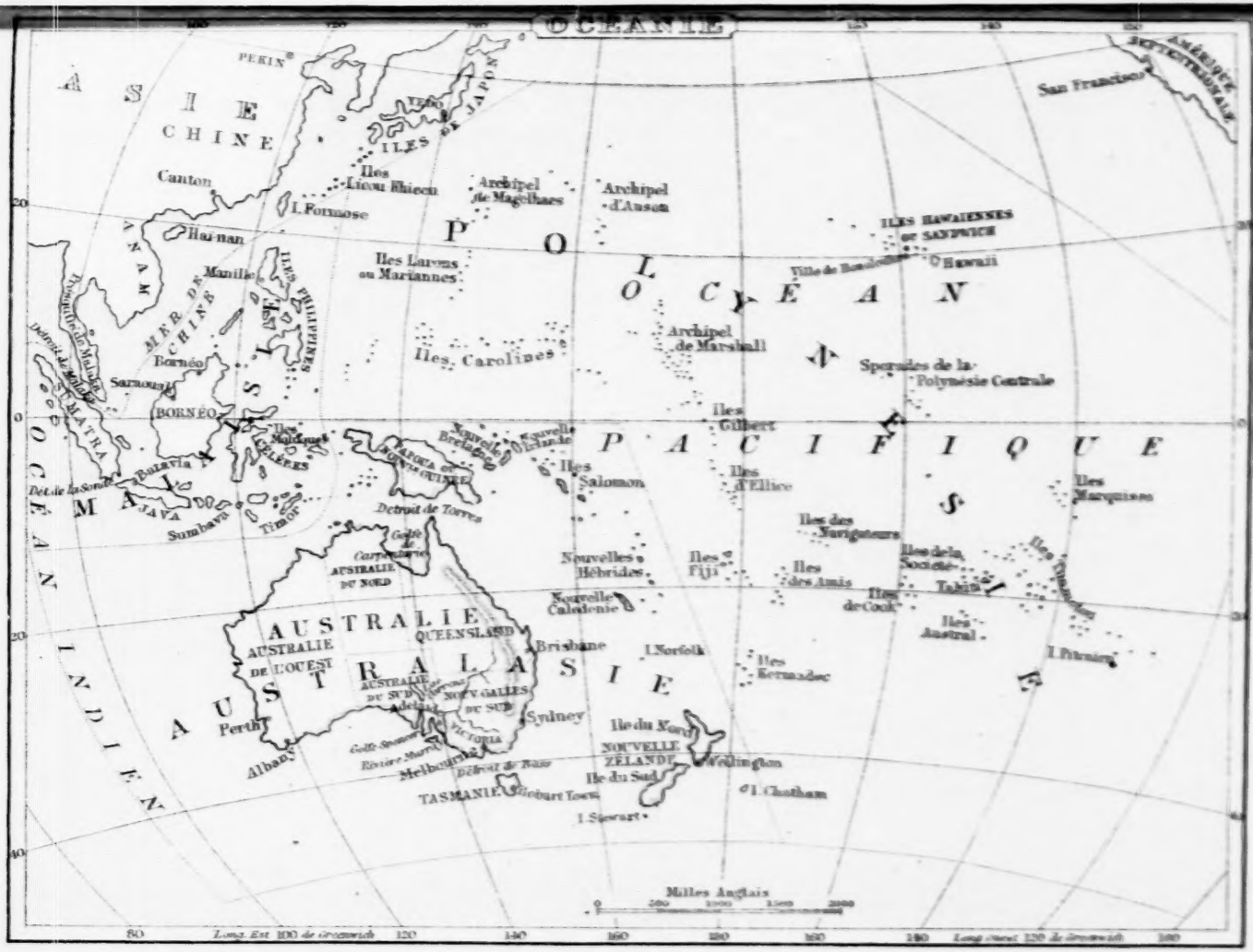

TABLE DES MATIÈRES.

Abyssinie 32
Afrique 30
Afrique Centrale..... 32
Afrique Méridionale..... 32
Afrique Occidentale..... 32
Afrique Orientale..... 32
Amérique Centrale..... 16
Amérique Méridionale... 18
Amérique Septentrionale 9
Angleterre 23
Antilles 17
Arabie..... 29
Asie 27
Australasie 33
Autriche 25
Barbarie 31
Belgique 24
Bolivie..... 21
Brésil..... 19
Canada 10
Chili 21
Chine 28
Colombie Anglaise..... 13
Comtés du Canada..... 46
Confédération Argentine. 20
Danemark..... 24
Définitions 1
Divisions naturelles des Terres 3
Divisions naturelles des Eaux 5
Divisions politiques 7
Ecosse..... 23
Egypte 31
Empire Germanique..... 25
Espagne 26
Equateur 21
Etats-Unis 14
Etats-Unis de la Colombie 19
Europe 22
France..... 24
Grèce..... 26
Guyanes..... 19
Hindoustan 28
Hollande 24
Ile du Prince-Edouard... 13
Iles Britanniques..... 23
Indes 28
Irlande 23
Italie..... 26
Japon 29
Kiwatin 14
Malaisie..... 33
Manitoba 13
Mexique..... 16
Norwège 24
Nouvelle-Ecosse..... 12
Nouveau-Brunswick..... 12
Nubie 32
Océanie..... 33
Ontario 11
Orientation 2
Paraguay 21
Patagonie 20
Pérou 21
Perse..... 28
Polynésie 34
Population des principales villes..... 56
Portugal 26
Prusse 25
Puissance du Canada..... 10
Québec 11
Races Humaines 8
Russie 24
Scandinavie 24
Sibérie..... 28
Suède 24
Suisse..... 25
Superficie et Population. 36
Terreneuve..... 14
Territoire du Nord-Ouest 14
Turquie d'Asie 28
Turquie d'Europe..... 26
Uruguay 20
Vénézuéla 19

CARTES.

Hémisphère Oriental..... 35
Hémisphère Occidental.. 38
Amérique Septentrionale 40
Amerique Méridionale.... 43
Province d'Ontario..... 45
Province de Québec..... 48
Prov. du N.-Brunswick... 50
Etats-Unis 53
Asie 55
Europe 58
Afrique 60
Océanie 63

swick..... 12
..... 32
..... 33
..... 11
..... 2
..... 21
..... 20
..... 21
..... 28
..... 34
es princi-
..... 56
..... 26
..... 25
Canada..... 10
..... 11
es 8
..... 24
..... 24
..... 28
..... 24
..... 25
Population. 36
..... 14
Nord-Ouest 14
e 28
rope..... 26
..... 20
..... 19

..... 55
..... 58
..... 60
..... 63